PORTE OUVERTE SUR...

CE livret 2

la géographie

HACHETTE
CLASSIQUES

1 Circulez !

Répondez.

L'église est-elle à votre gauche ou à votre droite ?

_____

Si vous tournez à droite en sortant de l'allée des Lierres, dans quelle rue êtes-vous ?

_____

Et si vous tournez à gauche ?

_____

Pour aller au gymnase, passerez-vous devant la piscine ?

_____

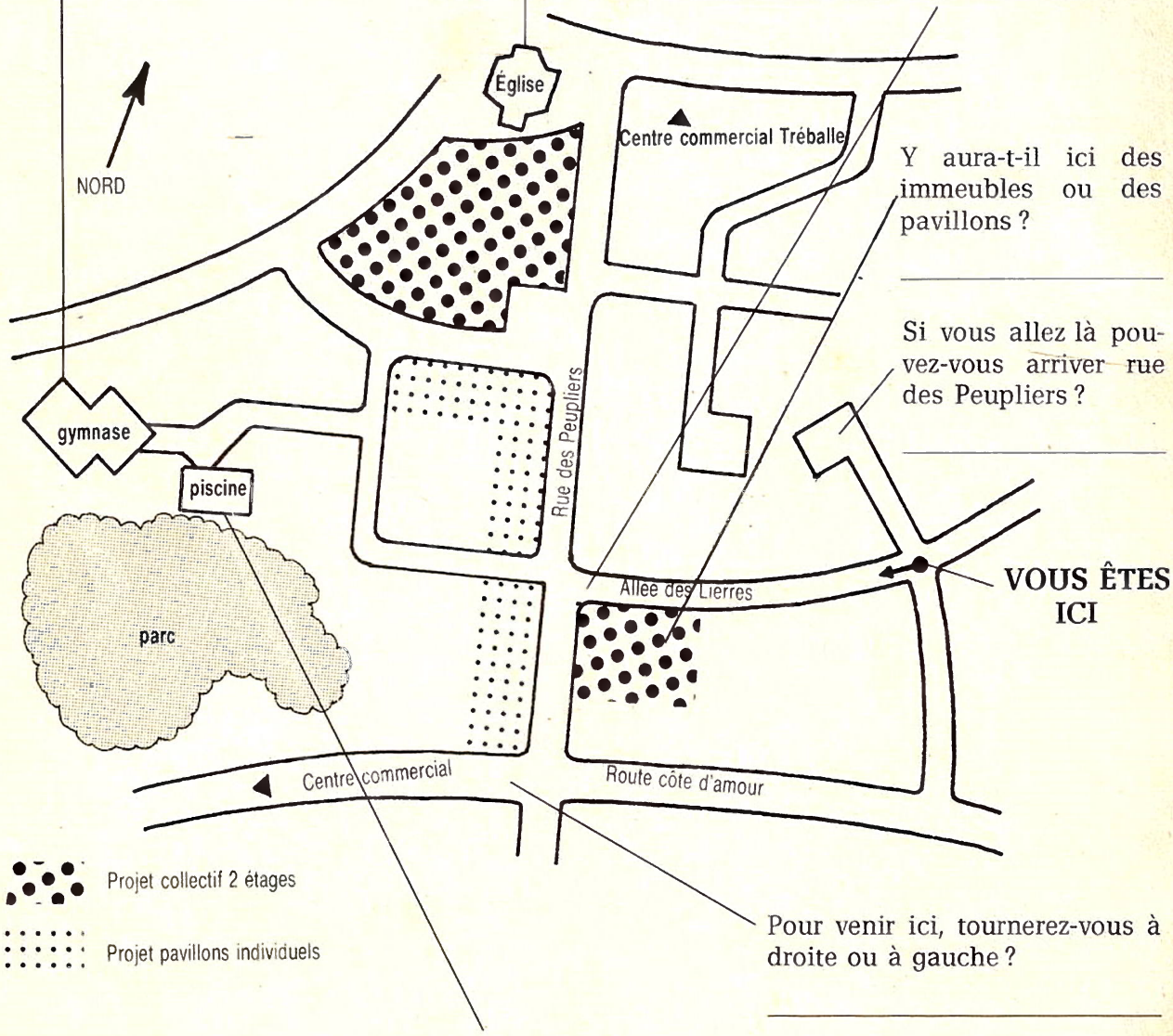

Y aura-t-il ici des immeubles ou des pavillons ?

_____

Si vous allez là pouvez-vous arriver rue des Peupliers ?

_____

Pour venir ici, tournerez-vous à droite ou à gauche ?

_____

Êtes-vous au nord ou au sud de l'église ?

_____

ISBN 2-01-009331-3
© 1983, *Hachette*.
79, bd St-Germain,
F 75006 Paris.

1 Circulez !

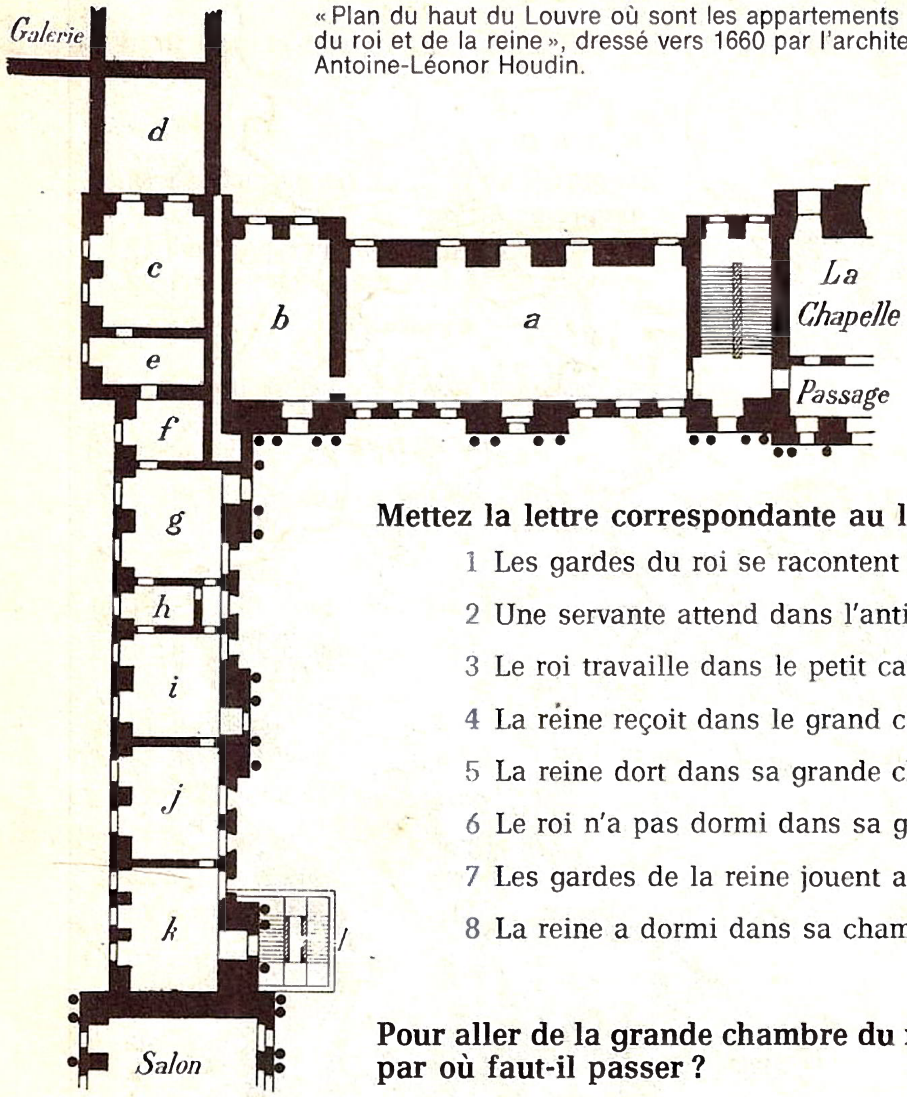

« Plan du haut du Louvre où sont les appartements du roi et de la reine », dressé vers 1660 par l'architecte : Antoine-Léonor Houdin.

a Salle des gardes du roi
b Antichambre du roi
c Grande chambre du roi
d Grand cabinet du roi
e Chambre à coucher
f Petit cabinet du roi
g Grande chambre de la reine
h Chambre à coucher
i Grand cabinet de la reine
j Antichambre de la reine
k Salle des gardes de la reine

Mettez la lettre correspondante au lieu.

1 Les gardes du roi se racontent leurs exploits ☐
2 Une servante attend dans l'antichambre de la reine ☐
3 Le roi travaille dans le petit cabinet ☐
4 La reine reçoit dans le grand cabinet ☐
5 La reine dort dans sa grande chambre ☐
6 Le roi n'a pas dormi dans sa grande chambre ☐
7 Les gardes de la reine jouent aux dés ☐
8 La reine a dormi dans sa chambre à coucher ☐

Pour aller de la grande chambre du roi à la salle des gardes de la reine, par où faut-il passer ?

_____

_____

_____



« Vue du Louvre, où sont les appartements du roi et de la reine, du côté du jardin » ; d'après Israël Sylvestre.

2 Une carte

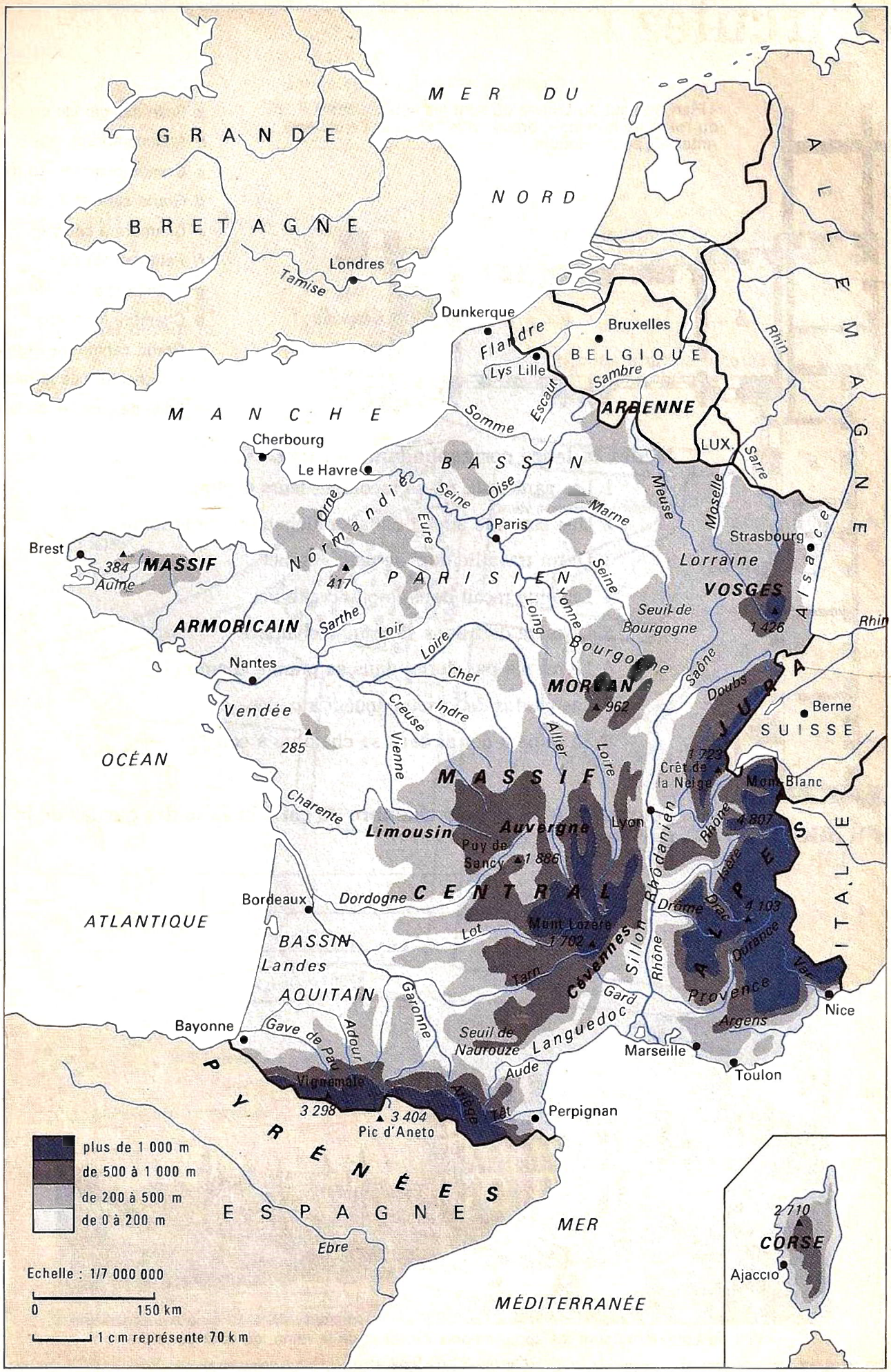
MER DU NORD
GRANDE BRETAGNE
Londres
Tamise
Dunkerque
Flandre
Lys
Lille
Bruxelles
BELGIQUE
Sambre
Escaut
ARDENNE
LUX.
Rhin
ALLEMAGNE
MANCHE
Somme
Cherbourg
Le Havre
BASSIN PARISIEN
Orne
Normandie
Seine
Oise
Eure
Paris
Marne
Meuse
Moselle
Sarre
Strasbourg
Alsace
Brest
384
MASSIF ARMORICAIN
Aulne
417
Sarthe
Loir
Loire
Nantes
Lorraine
VOSGES
1 426
Seuil de Bourgogne
Yonne
Loing
Bourgogne
MORVAN
962
Cher
Saône
Doubs
JURA
Berne
SUISSE
Vendée
285
Creuse
Indre
Vienne
Allier
Loire
OCÉAN
MASSIF CENTRAL
1 723
Crêt de la Neige
Mont Blanc
Charente
Limousin
Auvergne
Puy de Sancy
1 886
Lyon
Rhône
4 807
ALPES
Isère
Drôme
Drac
4 103
Bordeaux
Dordogne
ATLANTIQUE
Lot
Mont Lozère
1 702
Cévennes
Sillon Rhodanien
Rhône
Durance
Var
ITALIE
BASSIN AQUITAIN
Landes
Tarn
Garonne
Gard
Provence
Argens
Nice
Bayonne
Gave de Pau
Adour
Seuil de Naurouze
Languedoc
Marseille
Toulon
Aude
Vignemale
3 298
3 404
Pic d'Aneto
Ariège
Têt
Perpignan
PYRÉNÉES
ESPAGNE
Ebre
MER MÉDITERRANÉE
plus de 1 000 m
de 500 à 1 000 m
de 200 à 500 m
de 0 à 200 m
Echelle : 1/7 000 000
0
150 km
1 cm représente 70 km
2 710
CORSE
Ajaccio

1

2 Une carte

1 Sachant que le nord est en haut, le sud en bas, l'est à droite, l'ouest à gauche, cochez la bonne réponse.

1
- ☐ a) Dunkerque est au nord de Perpignan
- ☐ b) Dunkerque est au sud de Perpignan
- ☐ c) Perpignan est au nord de Dunkerque
- ☐ d) Perpignan est au sud de Dunkerque

2
- ☐ a) la Suisse est à l'est de la France
- ☐ b) la Suisse est à l'ouest de la France
- ☐ c) la France est à l'est de la Suisse
- ☐ d) la France est à l'ouest de la Suisse



2 La France vue par satellite le 14-4-1973

2 Cochez les bonnes réponses.

1 Sur la grande carte, on voit :
- ☐ a) les fleuves
- ☐ b) les montagnes
- ☐ c) les plaines
- ☐ d) les routes
- ☐ e) Paris
- ☐ f) Bordeaux
- ☐ g) Madrid
- ☐ h) Marseille
- ☐ i) la Manche
- ☐ j) Rouen

2
- ☐ a) Plus c'est élevé, plus c'est foncé sur la carte
- ☐ b) Plus c'est bas, plus c'est foncé sur la carte

3
- ☐ a) Paris est plus loin de Marseille que de Lyon
- ☐ b) Paris est moins loin de Marseille que de Lyon

4 Il y a des hautes montagnes
- ☐ a) en Vendée
- ☐ b) dans les Alpes
- ☐ c) autour de Bordeaux
- ☐ d) dans les Pyrénées

3 Cartes 2 et 3 :

1 Tracez sur la carte 2 les limites de la France.

2 Reportez sur la carte 3 :
— les plus hautes montagnes
— coloriez les mers en bleu
— situez :
- Paris
- Lyon
- Bordeaux
- Nantes
- Marseille
- Lille

et si vous n'habitez aucune de ces villes, celle où vous vivez.

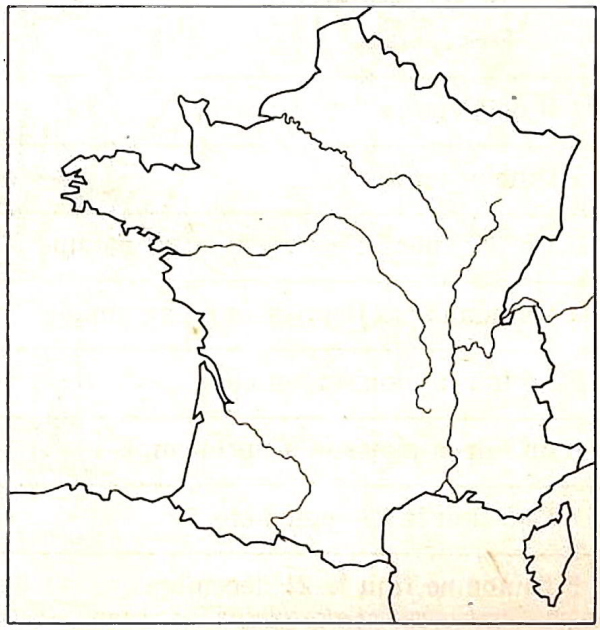

3

3 Les quatre saisons

1er TRIMESTRE 1983

JANVIER			FÉVRIER			MARS		
☉ 7 h. 46 à 16 h. 02			☉ 7 h. 23 à 16 h. 46			☉ 6 h. 35 à 17 h. 32		
1	S	**Jour de l'An**	1	M	s. Ella	1	M	s. Aubin
2	D	Epiphanie	2	M	Prés. Seigneur	2	M	s. Charles le B.
3	L	s. Geneviève	3	J	s. Blaise	3	J	s. Guénolé
4	M	s. Robert de R.	4	V	s. Véronique ☾	4	V	s. Casimir
5	M	s. Edouard	5	S	s. Agathe	5	S	s. Olive
6	J	s. Melaine ☾	6	D	s. Gaston	6	D	s. Colette ☾
7	V	s. Raymond	7	L	s. Eugénie	7	L	s. Félicité
8	S	s. Peggy	8	M	s. Jacqueline	8	M	s. Jean de D.
9	D	s. Alix	9	M	s. Apolline	9	M	s. Françoise R.
10	L	s. Guillaume	10	J	s. Arnaud	10	J	s. Vivien
11	M	s. Paulin	11	V	N.-D. Lourdes	11	V	s. Rosine
12	M	s. Tatiana	12	S	s. Félix	12	S	s. Justine
13	J	s. Yvette	13	D	s. Béatrice ●	13	D	s. Rodrigue
14	V	s. Nina ●	14	L	s. Valentin	14	L	s. Mathilde ●
15	S	s. Rémi	15	M	s. Claude	15	M	s. Louise de M.
16	D	s. Marcel	16	M	Cendres	16	M	s. Bénédicte
17	L	s. Roseline	17	J	s. Alexis	17	J	s. Patrice
18	M	s. Prisca	18	V	s. Bernadette	18	V	s. Cyrille
19	M	s. Marius	19	S	s. Gabin	19	S	s. Joseph
20	J	s. Sébastien	20	D	Carême ☽	20	D	s. Herbert
21	V	s. Agnès	21	L	s. P. Damien	21	L	s. Clémence
22	S	s. Vincent ☽	22	M	s. Isabelle	22	M	s. Léa ☽
23	D	s. Barnard	23	M	s. Lazare	23	M	s. Victorien
24	L	s. Franç. de S.	24	J	s. Modeste	24	J	s. C. de Suède
25	M	Conv. s. Paul	25	V	s. Roméo	25	V	Annonciation
26	M	s. Paule	26	S	s. Nestor	26	S	s. Larissa
27	J	s. Angèle	27	D	s. Honorine ♈	27	D	s. Habib
28	V	s. Thom. d'A. ♈	28	L	s. Romain	28	L	s. Gontran ♈
29	S	s. Gildas				29	M	s. Gwladys
30	D	s. Martine				30	M	s. Amédée
31	L	s. Marcelle				31	J	s. Benjamin

2e TRIMESTRE 1983

AVRIL			MAI			JUIN		
☉ 5 h. 31 à 18 h. 19			☉ 4 h. 33 à 19 h. 04			☉ 3 h. 54 à 19 h. 43		
1	V	s. Hugues	1	D	**Fête du Travail**	1	M	s. Justin
2	S	s. Franç. de P.	2	L	s. Boris	2	J	s. Blandine
3	D	**Pâques**	3	M	s. Philippe	3	V	s. Kévin ☾
4	L	s. Isidore	4	M	s. Sylvain	4	S	s. Clotilde
5	M	s. Irène ☾	5	J	s. Judith ☾	5	D	Fête Dieu
6	M	s. Marcellin	6	V	s. Prudence	6	L	s. Norbert
7	J	s. J.-B. de la S.	7	S	s. Gisèle	7	M	s. Gilbert
8	V	s. Julie	8	D	**Jour V J.-d'Arc**	8	M	s. Médard
9	S	s. Gautier	9	L	s. Pacôme	9	J	s. Diane
10	D	s. Fulbert	10	M	s. Solange	10	V	Sacré-Cœur
11	L	s. Stanislas	11	M	s. Estelle	11	S	s. Barnabé ●
12	M	s. Jules	12	J	**Ascension** ●	12	D	s. Guy
13	M	s. Ida ●	13	V	s. Rolande	13	L	s. Antoine P.
14	J	s. Maxime	14	S	s. Matthias	14	M	s. Elisée
15	V	s. Paterne	15	D	s. Denise	15	M	s. Germaine
16	S	s. Benoît-J.	16	L	s. Honoré	16	J	s. J.-F. Régis
17	D	s. Etienne H.	17	M	s. Pascal	17	V	s. Hervé ☽
18	L	s. Parfait	18	M	s. Eric	18	S	s. Léonce
19	M	s. Emma	19	J	s. Yves ☽	19	D	s. Romuald
20	M	s. Odette ☽	20	V	s. Bernardin	20	L	s. Silvère
21	J	s. Anselme	21	S	s. Constantin	21	M	s. Rodolphe
22	V	s. Alexandre	22	D	**Pentecôte**	22	M	s. Alban
23	S	s. Georges	23	L	s. Didier	23	J	s. Audrey
24	D	**Martyrs Déport.**	24	M	s. Donatien	24	V	s. Jean-Bapt.
25	L	s. Marc	25	M	s. Sophie	25	S	s. Prosper ♈
26	M	s. Aldo	26	J	s. Bérenger ♈	26	D	s. Anthelme
27	M	s. Zita ♈	27	V	s. Augustin	27	L	s. Fernand
28	J	s. Valérie	28	S	s. Germain	28	M	s. Irénée
29	V	s. C. de Sienne	29	D	**F. Mères-Trinité**	29	M	s. P. et Paul
30	S	s. Robert	30	L	s. Ferdinand	30	J	s. Martial
PRINTEMPS 21 MARS			31	M	Vis. s. Vierge	ÉTÉ 21 JUIN		

3e TRIMESTRE 1983

JUILLET			AOUT			SEPTEMBRE		
☉ 3 h. 53 à 19 h. 56			☉ 4 h. 25 à 19 h. 29			☉ 5 h. 08 à 18 h. 33		
1	V	s. Thierry	1	L	s. Alphonse	1	J	s. Gilles
2	S	s. Martinien	2	M	s. Julien E. ☾	2	V	s. Ingrid
3	D	s. Thomas ☾	3	M	s. Lydie	3	S	s. Grégoire
4	L	s. Florent	4	J	s. J-M Vian.	4	D	s. Rosalie
5	M	s. Antoine	5	V	s. Oswald	5	L	s. Raïssa
6	M	s. Mariette	6	S	Trans. de N.S.	6	M	s. Bertrand
7	J	s. Raoul	7	D	s. Gaétan	7	M	s. Reine ●
8	V	s. Thibaut	8	L	s. Dominique ●	8	J	Nativ. de la V.
9	S	s. Amandine	9	M	s. Amour	9	V	s. Alain
10	D	s. Ulrich ●	10	M	s. Laurent	10	S	s. Inès
11	L	s. Benoît	11	J	s. Claire	11	D	s. Adelphe
12	M	s. Olivier	12	V	s. Clarisse	12	L	s. Apollinaire
13	M	s. Henri et Joël	13	S	s. Hippolyte	13	M	s. Aimé
14	J	**F. Nationale**	14	D	s. Evrard	14	M	La Ste Croix ☽
15	V	s. Donald	15	L	**Assomption** ☽	15	J	s. Roland
16	S	N.-D. Mt-Carm.	16	M	s. Armel	16	V	s. Edith
17	D	s. Charlotte ☽	17	M	s. Hyacinthe	17	S	s. Renaud
18	L	s. Frédéric	18	J	s. Hélène	18	D	s. Nadège
19	M	s. Arsène	19	V	s. Jean E.	19	L	s. Emilie
20	M	s. Marina	20	S	s. Bernard	20	M	s. Davy
21	J	s. Victor	21	D	s. Christophe	21	M	s. Matthieu
22	V	s. Marie M.	22	L	s. Fabrice	22	J	s. Maurice ♈
23	S	s. Brigitte	23	M	s. Rose de L. ♈	23	V	s. Constant
24	D	s. Christine ♈	24	M	s. Barthélemy	24	S	s. Thècle
25	L	s. Jacques	25	J	s. Louis	25	D	s. Hermann
26	M	s. Anne	26	V	s. Natacha	26	L	s. Côme et Da.
27	M	s. Nathalie	27	S	s. Monique	27	M	s. Vinc. de P.
28	J	s. Samson	28	D	s. Augustin	28	M	s. Venceslas
29	V	s. Marthe	29	L	s. Sabine	29	J	s. Michel ☾
30	S	s. Juliette	30	M	s. Fiacre	30	V	s. Jérôme
31	D	s. Ignace de L.	31	M	s. Aristide ☾	AUTOMNE 23 SEPTEM.		

4e TRIMESTRE 1983

OCTOBRE			NOVEMBRE			DÉCEMBRE		
☉ 5 h. 50 à 17 h. 30			☉ 6 h. 38 à 16 h. 30			☉ 7 h. 24 à 15 h. 55		
1	S	s. Thérèse E.J.	1	M	**Toussaint**	1	J	s. Florence
2	D	s. Léger	2	M	Défunts	2	V	s. Viviane
3	L	s. Gérard	3	J	s. Hubert	3	S	s. Franç. Xav.
4	M	s. Franç. d'A.	4	V	s. Charles ●	4	D	s. Barbara ●
5	M	s. Fleur	5	S	s. Sylvie	5	L	s. Gérald
6	J	s. Bruno ●	6	D	s. Bertille	6	M	s. Nicolas
7	V	s. Serge	7	L	s. Carine	7	M	s. Ambroise
8	S	s. Pélagie	8	M	s. Geoffroy	8	J	Imm. Conc.
9	D	s. Denis	9	M	s. Théodore	9	V	s. P. Fourier
10	L	s. Ghislain	10	J	s. Léon	10	S	s. Romaric
11	M	s. Firmin	11	V	**Armistice**	11	D	s. Daniel
12	M	s. Wilfried	12	S	s. Christian ☽	12	L	s. J-F. Chant. ☽
13	J	s. Géraud ☽	13	D	s. Brice	13	M	s. Lucie
14	V	s. Juste	14	L	s. Sidoine	14	M	s. Odile
15	S	s. Thérèse d'A	15	M	s. Albert	15	J	s. Ninon
16	D	s. Edwige	16	M	s. Marguerite	16	V	s. Alice
17	L	s. Baudouin	17	J	s. Elisabeth	17	S	s. Judicaël
18	M	s. Luc	18	V	s. Aude	18	D	s. Gatien
19	M	s. René	19	S	s. Tanguy	19	L	s. Urbain
20	J	s. Aline	20	D	Christ-Roi ♈	20	M	s. Abraham ♈
21	V	s. Céline ♈	21	L	Prés. de Marie	21	M	s. Pierre C.
22	S	s. Salomé	22	M	s. Cécile	22	J	s. F. Xavière
23	D	s. Jean de C.	23	M	s. Clément	23	V	s. Armand
24	L	s. Florentin	24	J	s. Flora	24	S	s. Adèle
25	M	s. Enguerran	25	V	s. Catherine L.	25	D	**Noël**
26	M	s. Dimitri	26	S	s. Delphine	26	L	s. Etienne ☾
27	J	s. Emeline	27	D	Avent ☾	27	M	s. Jean
28	V	s. Simon	28	L	s. Jac. de la M.	28	M	ss. Innocents
29	S	s. Narcisse ☾	29	M	s. Saturnin	29	J	s. David
30	D	s. Bienvenue	30	M	s. André	30	V	s. Roger
31	L	s. Wolfgang	HIVER 22 DÉCEMBRE			31	S	s. Sylvestre

1 **Sur ce calendrier, soulignez en rouge les dates de début :**

de l'hiver; du printemps; de l'été; de l'automne

(Recherchez-les aussi sur un autre calendrier.)

2 **Vérifiez.**

a) Quelle est la date de votre anniversaire ?

_____

b) En quelle saison le fête-t-on ?

_____

c) Quelle est la date de votre fête ?

_____

d) En quelle saison se situe-t-elle ?

_____

e) En quelle saison se situe le 14 Juillet ?

_____

f) Et Noël ?

_____

g) Et la Toussaint ?

_____

3 **VRAI ou FAUX ? Mettez une croix dans la colonne correspondante. (Chercher aussi sur des dictionnaires.)**

En général,	V	F		V	F
1 il neige en juillet			9 on laboure en hiver		
2 il neige en hiver			10 on laboure en automne		
3 les pommiers fleurissent au printemps			11 la rentrée scolaire est en été		
4 les pommiers fleurissent en automne			12 la rentrée scolaire est en automne		
5 on fait la moisson en été			13 les jours sont plus longs en hiver		
6 on fait la moisson au printemps			14 les jours sont plus longs en été		
7 l'été finit le 22 septembre			15 les nuits sont plus longues en été		
8 l'automne finit le 21 décembre			16 les nuits sont plus longues en hiver		

3 Les quatre saisons

4 Les hommes changent, pas les saisons.

En quelle saison se passe cette scène ?

_____

Comment le savez-vous ?

_____

_____

_____

5 Les quatre saisons.

Avec des crayons de couleurs, habillez ce pommier selon les saisons.

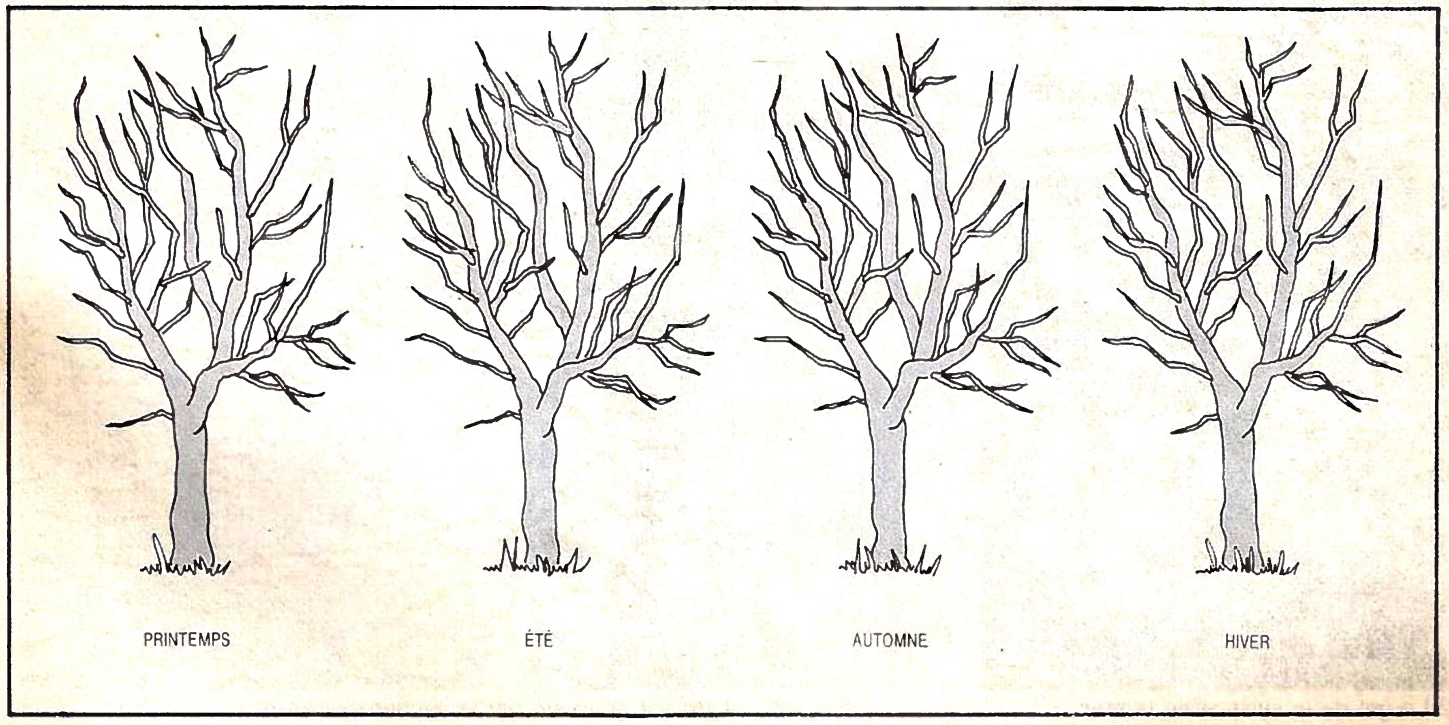

4 Des climats différents



1 La construction d'un igloo

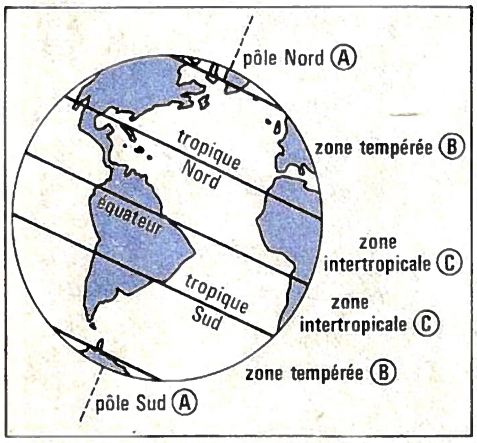

Les grandes zones climatiques



2 Le gel de la surface de la mer



3 Le désert de sable en Arabie



4 Un sol craquelé par la sécheresse en Afrique du Sud

4 Des climats différents

1 **Mettez le n° de la photo correspondante.**

a) Photo n° ☐ Près des pôles, il fait si froid que même la mer se couvre de glace.

b) Photo n° ☐ Certains étés, en Afrique intertropicale, il fait si chaud et si sec que le sol se fend.

c) Photo n° ☐ Dans certaines régions d'Afrique intertropicale, il pleut tellement et il fait si chaud que la forêt est un véritable mur de verdure.

d) Photo n° ☐ Il faut parfois parcourir des centaines de kilomètres pour trouver de l'eau et il ne pousse presque rien sur le sable.

e) Photo n° ☐ Comme dans toutes les régions des zones tempérées, il pleut l'hiver mais il fait assez beau l'été.

5 La forêt dense au Congo

2 **En regardant le croquis et les photos, essayez de mettre en correspondance. Entourez la lettre qui correspond à la zone climatique.**

	Zone		
Photo n° 1	A	B	C
Photo n° 2	A	B	C
Photo n° 3	A	B	C
Photo n° 4	A	B	C
Photo n° 6	A	B	C

3 **Dans quelle zone climatique vivez-vous ?**

_____

Quel temps y fait-il ? _____

_____

_____

6 La pluie en Bretagne

5 Les sols



1 Les labours en Espagne du Sud



3 Un erg

1 **Barrez les affirmations fausses.**

a) L'erg est un gisement de cuivre

b) La sécheresse tue le bétail en Afrique

c) L'Espagne du Sud est très verdoyante

d) Il y a des arbres sur la banquise

e) La Flandre est une région riche

f) La sécheresse craquelle le sol

g) La forêt guyanaise est touffue

h) Le sol peut contenir des minerais

i) Il y a plus de végétation en Guyane que sur la banquise

j) Le sable se trouve surtout dans les régions désertiques

k) Plus il pleut, plus la végétation est importante



2 Les effets de la sécheresse, en Afrique tropicale



4 Manchots sur la banquise

5 Les sols

5 Indiens de la forêt (Guyane)

6 Mine de cuivre au Chili

2 **Écrivez le n° de l'illustration correspondante.**

	N°
a) On ne voit pas un brin d'herbe, pas un arbre. Le froid est intense. Une colonie de manchots se promène, « vêtue » de noir et blanc.	
b) L'homme creuse la montagne pour extraire le minerai.	
c) A part quelques arbustes, la terre est sèche. Le soc a du mal à s'y enfoncer.	
d) Depuis des mois, on attend en vain la pluie. Le sol devient une véritable croûte qui éclate. Le bétail meurt de soif.	
e) A force de souffler, le vent a construit de véritables vagues de sable.	
f) Il faut, pour avancer, se frayer un passage à la machette dans le mur vert de la forêt.	
g) C'est une plaine riche, bien cultivée, où chaque parcelle est délimitée avec soin.	



7 La plaine de Flandre, dans le Nord de la France

6 Par monts et par vaux

1 La chaîne de l'Himalaya (plus de 8 000 m d'altitude)

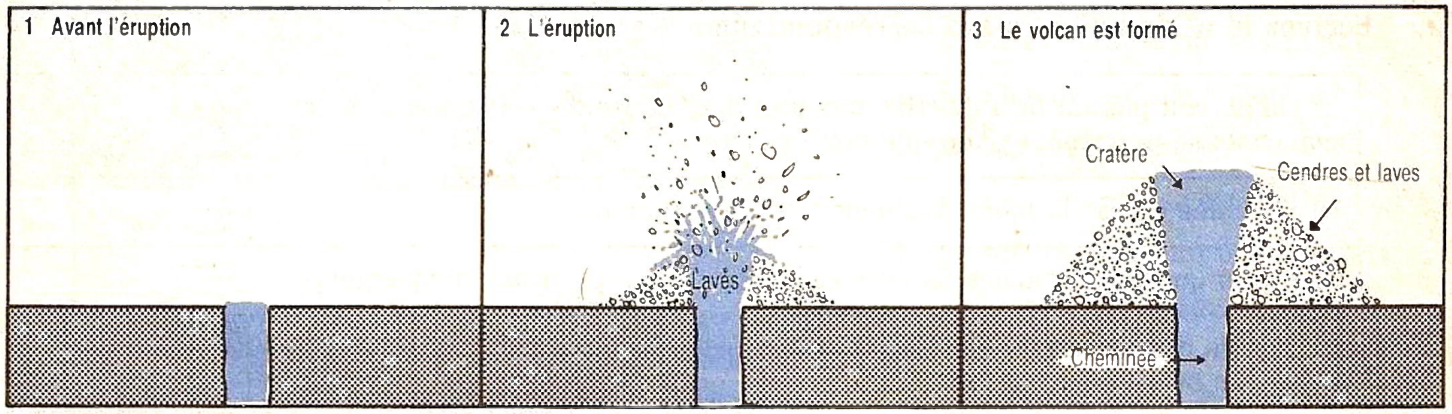

2 Naissance d'un volcan

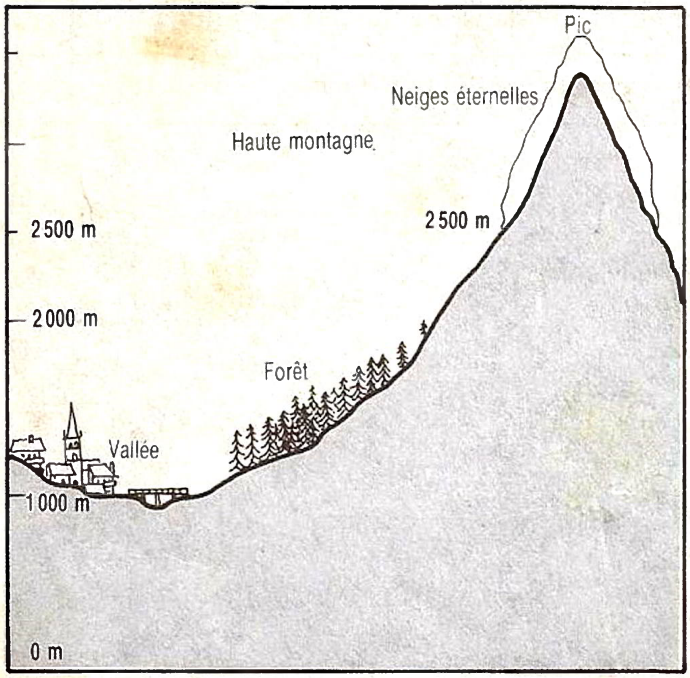

3 Une vallée de haute montagne



4 Volcan

6 Par monts et par vaux



1 pic. 2 volcan. 3 vallée. 4 plateau. 5 collines. 6 mont. 7 ballons. 8 plaine.

1 Trouvez le mot qui correspond à la définition, mettez son n° dans le rond.

a) ◯ _____: sommet pointu d'une montagne.

b) ◯ _____: petit mont au sommet arrondi.

c) ◯ _____: sorte de couloir qui s'étend entre deux versants montagneux.

d) ◯ _____: vaste étendue de terrain, plate comme une plaine, mais plus élevée.

e) ◯ _____: nom donné à des montagnes des Vosges dont le sommet est arrondi.

f) ◯ _____: grande étendue de terre plate et de faible altitude.

g) ◯ _____: quand il n'est pas éteint, il est très dangereux.

2 Cochez la bonne réponse.

1 ☐ a) L'Himalaya est recouvert de neiges éternelles
☐ b) En été, il n'y a plus de neige sur les sommets de l'Himalaya

2 ☐ a) Les sommets de l'Himalaya sont des pics
☐ b) Les sommets de l'Himalaya sont des ballons

3 ☐ a) Le document n° 4 montre un volcan en éruption
☐ b) Le document n° 4 montre un volcan éteint

4 ☐ a) Autour d'un volcan en activité, il y a beaucoup de végétation
☐ b) Autour d'un volcan en activité, il n'y a aucune végétation

5 ☐ a) Les neiges éternelles se trouvent au-dessus de 2500 m
☐ b) Les neiges éternelles se trouvent au-dessous de 2500 m

6 ☐ a) La forêt va environ jusqu'à 2000 m d'altitude
☐ b) La forêt va bien au-dessus de 2000 m d'altitude

7 ☐ a) Plus les montagnes sont jeunes, plus elles sont pointues
☐ b) Plus les montagnes sont jeunes, plus elles sont arrondies

7 Au fil de l'eau



1 neige. 2 pluies. 3 glacier. 4 torrents. 5 rivières. 6 ruisseaux. 7 affluent. 8 confluent. 9 fleuve. 10 embouchure. ↑ a : amont. ↓ b : aval.

1 **Trouvez le mot qui correspond à la définition et mettez le n° correspondant du croquis dans le rond.**

a) ◯ _____ elle tombe sur les sommets, fond au printemps. Parfois éternelle.

b) ◯ _____ grosse masse de glace qui se forme en montagne lorsque la neige s'accumule et se tasse.

c) ◯ _____ c'est l'eau des nuages qui tombe en gouttes.

d) ◯ _____ l'eau y coule très vite car la pente est très forte en montagne.

e) ◯ _____ le courant est lent, la pente est faible. Il n'est ni large ni profond.

f) ◯ _____ plus importante que e).

g) ◯ _____ se jette dans une rivière plus importante ou un fleuve.

h) ◯ _____ point où deux rivières se réunissent.

i) ◯ _____ grande rivière qui se jette dans la mer.

j) ◯ _____ endroit où l'eau douce du fleuve débouche dans la mer.

2 **Attention !**

a) A se trouve-t-il en amont ou en aval de B ? _____

b) B se trouve-t-il en amont ou en aval de A ? _____

c) Sur quelle rive se trouve C ? _____

d) Sur quelle rive se trouve D ? _____

7 Au fil de l'eau



1 Vue aérienne verticale de Montereau

3

1 Avec un feutre **rouge,** entourez sur la photo

— le pont qui franchit l'Yonne
— les espaces verts qui bordent la Seine.

2 Coloriez la Seine en **bleu**.
Coloriez l'Yonne en **rouge**.

3 Coloriez en **vert** les parcs et les bois.

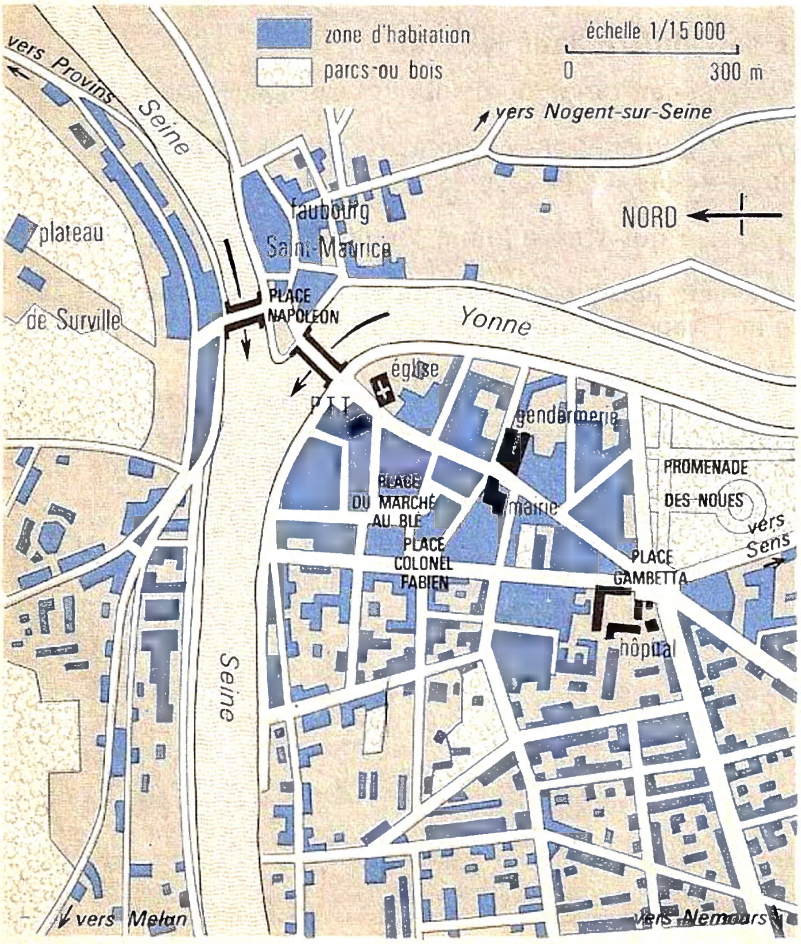

2 Le plan de Montereau

4 **Barrez l'affirmation fausse.**

1 a) Melun est en aval de Provins
b) Melun est en amont de Provins

2 a) La Seine coule d'Est en Ouest
b) La Seine coule d'Ouest en Est

3 a) Les PTT sont sur la rive droite
b) Les PTT sont sur la rive gauche

4 a) Le plateau de Surville est sur la rive droite
b) Le plateau de Surville est sur la rive gauche

5 a) Pour aller de Melun à Montereau en bateau, il faut remonter la Seine
b) Pour aller de Melun à Montereau en bateau, il faut descendre la Seine

8 Au bord de l'eau



1 falaise. 2 crique. 3 golfe. 4 presqu'île. 5 île. 6 récifs. 7 plage. 8 cap.

1 Trouvez le mot qui est défini. Inscrivez son chiffre dans le rond.

a) ◯ _____ partie d'une côte en forme de pointe qui s'avance dans la mer.

b) ◯ _____ partie d'une côte très élevée qui tombe à pic en formant une sorte de mur au-dessus de la mer.

c) ◯ _____ partie d'une mer qui avance loin à l'intérieur des terres.

d) ◯ _____ partie d'une côte presque entièrement entourée d'eau, mais rattachée au rivage par une bande de terre.

e) ◯ _____ étendue de terre complètement entourée d'eau.

f) ◯ _____ rochers situés au voisinage des côtes et dont le sommet se trouve juste à la surface de l'eau. Ils sont peu visibles et donc très dangereux pour la navigation.

g) ◯ _____ étendue de sable qui borde la mer.

h) ◯ _____ petite baie abritée dans une côte rocheuse.

2 Cherchez le nom

a) d'une île connue _____

b) d'une station balnéaire _____

c) d'un golfe sur les côtes françaises _____

d) d'un cap au sud de l'Afrique _____

e) d'une presqu'île française _____

8 Au bord de l'eau

3 **Remplissez le tableau.**

Sur quels documents voit-on :

	N° des documents
a) des falaises ?	
b) des récifs ?	
c) une plage ?	
d) un cap ?	

1



2

3



4

9 De la piste à l'autoroute



1 Voies rapides à Los Angeles



4 Autoroute en Californie



2 Une course automobile



5 Poste de douane



3 Convoi de camions au Sahara



6 Convoi dans le désert

9 De la piste à l'autoroute

1 **Tracez l'itinéraire d'une voiture.**

— **rouge** qui va de B vers A
— **verte** qui va de B vers C
— **noire** qui va de C vers A

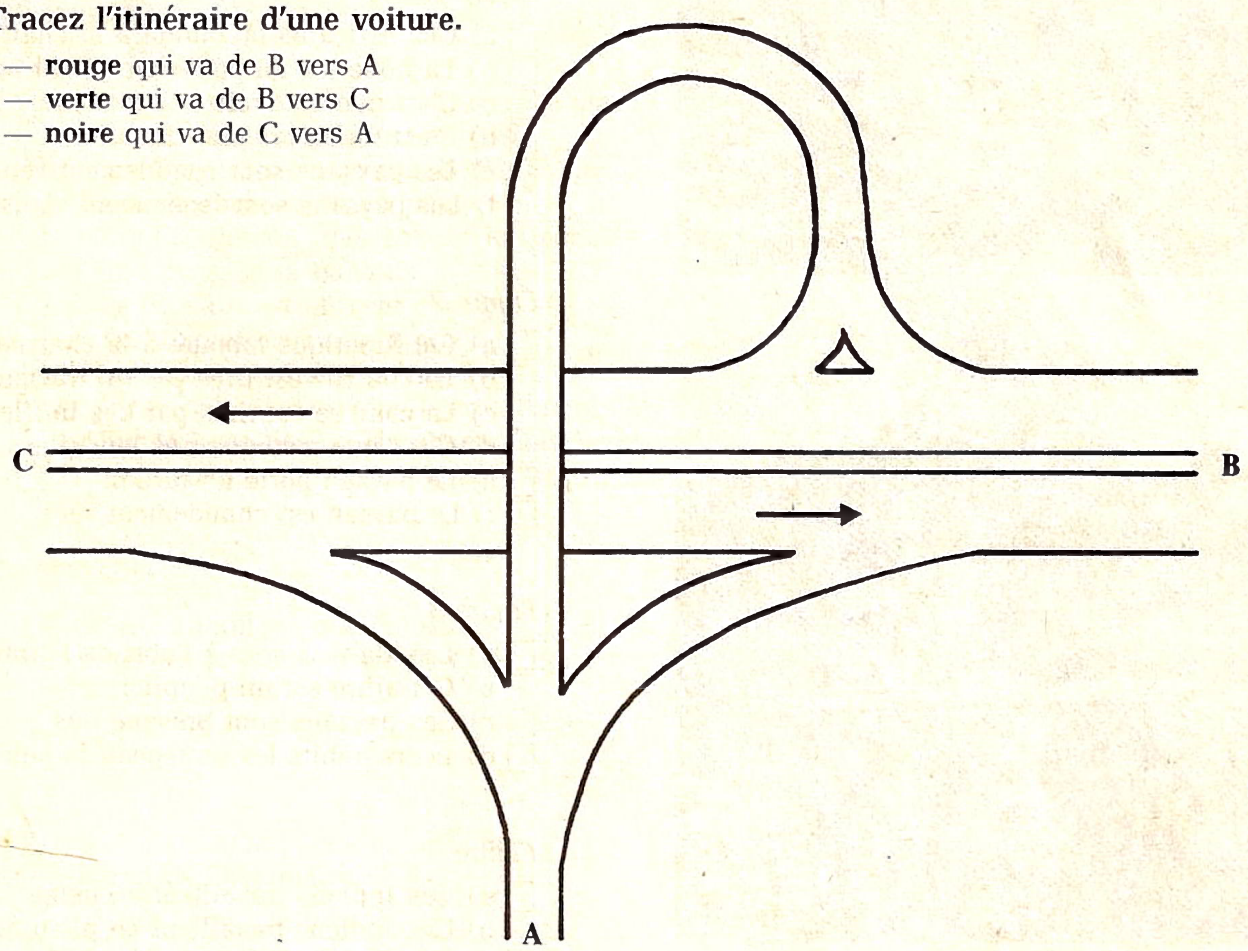

2 **A quelle photo correspond le texte ? Mettez le n° dans la case.**

		N°
1	Les quatre files de l'autoroute sont saturées	
2	Dans le désert, les camions roulent sur des pistes non goudronnées	
3	Sur cette piste, on peut rouler à plus de 130 km/h sans risquer de procès-verbal	
4	Il vaut mieux ne pas se tromper de file sur cet échangeur	
5	Les caravanes mettent des semaines à traverser le désert	
6	Il vaut mieux ne rien cacher au contrôle de la douane	
7	Les routes passent les unes sous les autres	
8	Pour ne pas se perdre, il vaut mieux suivre les traces de roues	
9	La foule des spectateurs regarde passer les bolides	
10	Le poste frontière se trouve en France	

10 L'homme dans la nature



1 Labours à la houe



2 Le labour de la rizière



3 Au Mali

1 Le chaud.
Cochez les bonnes réponses.

Figure 1

- ☐ a) Ces Africains labourent à la charrue
- ☐ b) La houe est un petit instrument agraire
- ☐ c) C'est une méthode très moderne
- ☐ d) C'est un travail très dur
- ☐ e) Les paysans sont chaudement vêtus
- ☐ f) Les paysans sont légèrement vêtus

Figure 2

- ☐ a) Cet Asiatique laboure à la charrue
- ☐ b) La charrue est tirée par un tracteur
- ☐ c) La charrue est tirée par des buffles
- ☐ d) C'est une méthode très moderne
- ☐ e) Le paysan porte un turban
- ☐ f) Le paysan est chaudement vêtu

Figure 3

- ☐ a) Les Maliens sont à l'abri de l'arbre
- ☐ b) Cet arbre est un peuplier
- ☐ c) Ces paysans sont presque nus
- ☐ d) Leurs habits les protègent du soleil

Figure 4

- ☐ a) Ces Indiens travaillent en usine
- ☐ b) Ces Indiens travaillent en plein air
- ☐ c) C'est une installation très moderne
- ☐ d) C'est une installation très ancienne
- ☐ e) Ils portent de grands vêtements
- ☐ f) Ils sont presque nus



4 Des ouvriers teinturiers près de Madras, en Inde

10 L'homme dans la nature

2 Le froid.

Figures 5, 6, 7

- ☐ a) Les Esquimaux pêchent à travers la glace
- ☐ b) Les Esquimaux pêchent au filet
- ☐ c) Les Esquimaux sont chaudement vêtus
- ☐ d) Les Esquimaux sont à peine vêtus
- ☐ e) Les Esquimaux chassent sur la banquise
- ☐ f) Ils labourent la banquise
- ☐ g) Le blizzard est un vent chaud
- ☐ h) Le blizzard est un vent glacial
- ☐ i) Les morses ont des défenses
- ☐ j) Sur la banquise on circule en automobile
- ☐ k) Sur la banquise on circule en chenillette
- ☐ l) Sur la banquise on circule en traîneau

3 Recherche.

1 Citez trois animaux que pourraient rencontrer les paysans africains de la fig. 1

_____

_____

2 Citez trois animaux que pourraient rencontrer les Esquimaux

_____

_____

3 A quoi va servir le morse ?

_____

_____

_____



5 Un Esquimau à la pêche, en hiver

6 Le dépeçage d'un morse

7 Le blizzard dans les régions arctiques

11 L'homme et la nature



1 La Grande Motte, station balnéaire

Cochez les bonnes réponses.

1 *La mer aménagée*

☐ a) C'est une plage naturelle

☐ b) C'est un port artificiel

☐ c) Ce sont des maisons anciennes

☐ d) Ce sont des immeubles neufs

☐ e) Les bateaux sont sur le sable

☐ f) On a construit des jetées

☐ g) C'est un port de marchandises

☐ h) C'est un port de vacances



2 Une station de forage en mer

2 *La mer exploitée*

☐ a) Cette station flotte sur l'eau

☐ b) Elle est fixée au fond de la mer

☐ c) Elle sert à guider les navires

☐ d) Elle sert à chercher du pétrole

☐ e) Elle est construite sur une île

☐ f) Elle est construite sur pilotis

☐ g) C'est une construction métallique

☐ h) Le pétrole est sous la mer



3 Carrières et cimenterie à Cruas (Ardèche)

3 *La montagne exploitée*

☐ a) Les sommets sont aigus

☐ b) Les sommets sont arrondis

☐ c) C'est une montagne vieille

☐ d) C'est une montagne jeune

☐ e) La carrière a plusieurs étages

☐ f) La carrière est au sommet

☐ g) L'usine est une cimenterie

☐ h) Le relief a changé en dix ans

11 L'homme et la nature

4 *Le fleuve domestiqué*

☐ a) On a construit un pont

☐ b) On a construit un barrage

☐ c) L'eau s'écoule librement

☐ d) L'eau est retenue par un mur

☐ e) Il y a une centrale qui produit de l'électricité

☐ f) Ce barrage ne sert qu'à l'irrigation d'une région sèche

☐ g) L'usine se trouve en amont du barrage

☐ h) L'usine se trouve en aval du fleuve

☐ i) L'eau est au même niveau avant et après le barrage

☐ j) Le niveau de l'eau est plus haut avant le barrage qu'après



4

5 *Le fleuve aménagé*

☐ a) Les rives sont en terre battue

☐ b) Les rives ont été cimentées

☐ c) Trois ponts routiers franchissent le fleuve

☐ d) Deux ponts routiers franchissent le fleuve

☐ e) Il y a, aussi, un pont de chemin de fer

☐ f) Des péniches naviguent sur ce fleuve

☐ g) Ce fleuve n'est pas navigable

☐ h) On a construit des immeubles sur les rives

☐ i) Il y a autant d'arbres que sur les rives du fleuve de la gravure du dessus



5

12 Rentrons au port



A. port de guerre. **B.** port minéralier. **C.** port de plaisance. **D.** port de commerce. **E.** port de pêche. **F.** port pétrolier. **1** zone industrielle. **2** arsenal. **3** porte-avions. **4** frégate. **5** gare maritime. **6** entrepôt. **7** gare de triage. **8** centrale thermique. **9** pont roulant. **10** chantier naval. **11** charbon. **12** minerai en vrac. **13** baie. **14** pontons. **15** yacht. **16** aéroglisseur. **17** paquebot. **18** cargo. **19** môle. **20** bassin. **21** ferry-boat. **22** atelier de réparations navales. **23** chalutier. **24** entrepôt frigorifique. **25** méthanier. **26** bassin de radoub. **27** chenal. **28** radar. **29** vigie du port. **30** remorqueur. **31** porte-conteneurs. **32** ravitailleur. **33** bouées. **34** vedette des douanes. **35** dock flottant. **36** wagon-citerne. **37** pétrolier. **38** jetée. **39** sémaphore. **40** bateau-pilote.

12 Rentrons au port

VRAI ou FAUX. Mettez une croix dans la colonne correspondante. (Observez bien les gravures.)

	V	F
1 Le port est divisé en 6 grandes zones		
2 La plage borde le port de guerre		
3 Le yacht est un navire pétrolier		
4 La jetée protège le port		
5 Un paquebot est un grand navire pour voyageurs		
6 Les porte-conteneurs transportent des marchandises		
7 Un méthanier transporte du pétrole		
8 Un méthanier transporte du gaz liquide		
9 Un dock flottant met le navire hors d'eau		
10 Le bateau-pilote guide les navires à l'entrée du port		
11 Le ferry-boat transporte des trains		
12 Les navires de plaisance sont amarrés à des pontons		
13 La construction navale utilise des ponts roulants		
14 L'aéroglisseur ne peut aller sur la terre ferme		
15 Le môle se trouve au bout d'un quai		
16 Les chalutiers sont des navires de guerre		
17 Les chalutiers sont des navires de pêche		
18 Le pétrole est stocké dans les entrepôts		
19 Le pétrole est stocké dans des cuves		
20 Le minerai est stocké en vrac		

	V	F
21 Le minerai est stocké dans des conteneurs		
22 Le cargo est un navire de plaisance		
23 Le cargo est un navire qui transporte des marchandises		
24 Il y a un méthanier dans le bassin de radoub		
25 Le froid sert à conserver le poisson		
26 L'entrée du port est balisée par des sémaphores		
27 L'arsenal fait partie du port de guerre		
28 Une frégate est amarrée dans le port de commerce		
29 La centrale thermique utilise du charbon		
30 C'est un chalutier qui entre dans le port		
31 Il y a des chalutiers dans cette zone du port de New York		
32 Il y a des cargos dans cette zone du port de New York		
33 Des paquebots sont amarrés dans le port de New York		



Le port de New York

13 Les loisirs



2 Camping et résidences à Saint-Cyprien (Languedoc)

3 La cité Nautica à Barcarès



1 Le ski

1 télésiège. **2** téléphérique. **3** aile volante. **4** chalet. **5** téléski. **6** station de sports d'hiver. **7** patinoire. **8** pylône. **9** chasse-neige. **10** piquets et fanions. **11** tremplin de saut. **12** piste de slalom. **13** porte de slalom. **14** moniteur de ski. **15** anorak. **16** casque. **17** luge. **18** bâton de ski. **19** raquette. **20** ski de fond.

13 Les loisirs

1 **VRAI ou FAUX. Cochez la case correspondante.**

		V	F
1	Les stations de ski sont construites en plaine		
2	La piste de slalom est balisée par des portes		
3	Le casque assure une plus grande sécurité au skieur		
4	Le téléski est une cabine suspendue		
5	Les raquettes permettent de marcher sur la neige		
6	Les bâtiments se trouvent en bas des pistes		
7	La signalisation est faite avec des fanions		
8	Les skieurs de fond effectuent des slaloms		
9	Les skieurs de fond effectuent des randonnées		
10	Les câbles sont soutenus par des pylônes		
11	On se sert d'une luge pour patiner		
12	La luge est une sorte de petit traîneau		
13	Les chalets sont de petites maisons de montagne		
14	Les chalets sont des immeubles		
15	On dégage les routes avec des chasse-neige		
16	Le moniteur enseigne le ski aux débutants		
17	Pour sauter, on utilise un tremplin		
18	On doit skier en short et chemisette		
19	Les bâtons sont indispensables pour skier		
20	Le téléphérique comporte des cabines		

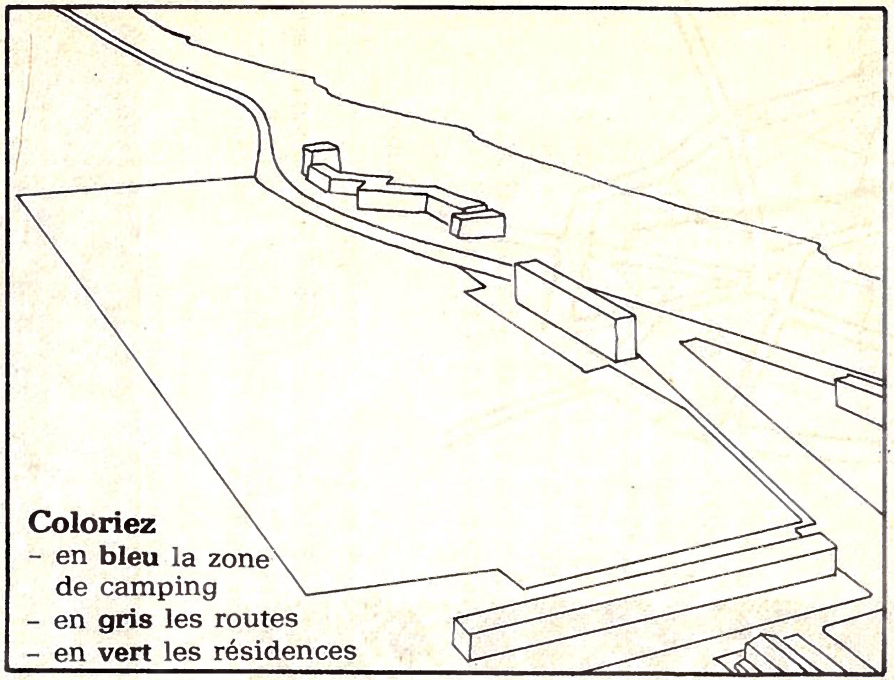

Coloriez
- en **bleu** la zone de camping
- en **gris** les routes
- en **vert** les résidences

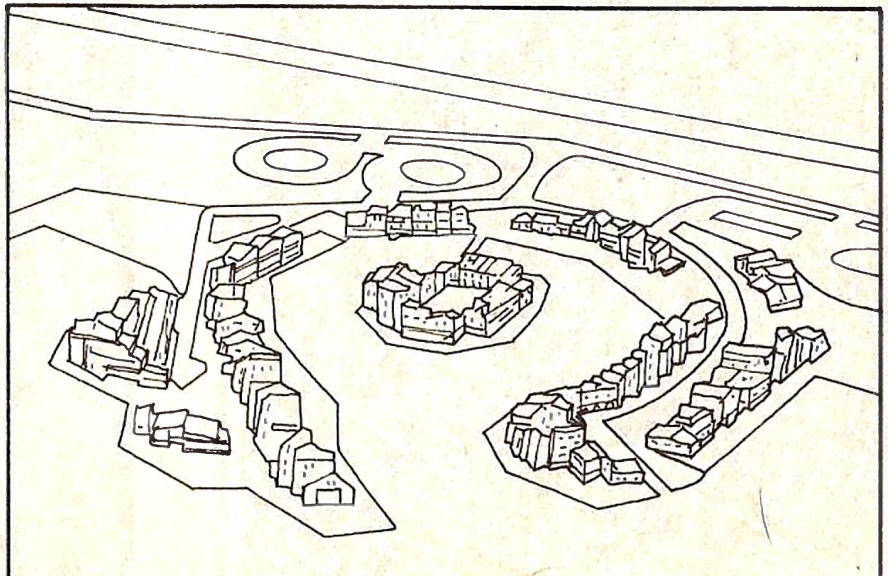

Coloriez en *gris* les zones de circulation et de stationnement. Dessinez les bateaux.

14 A travers les vieilles villes

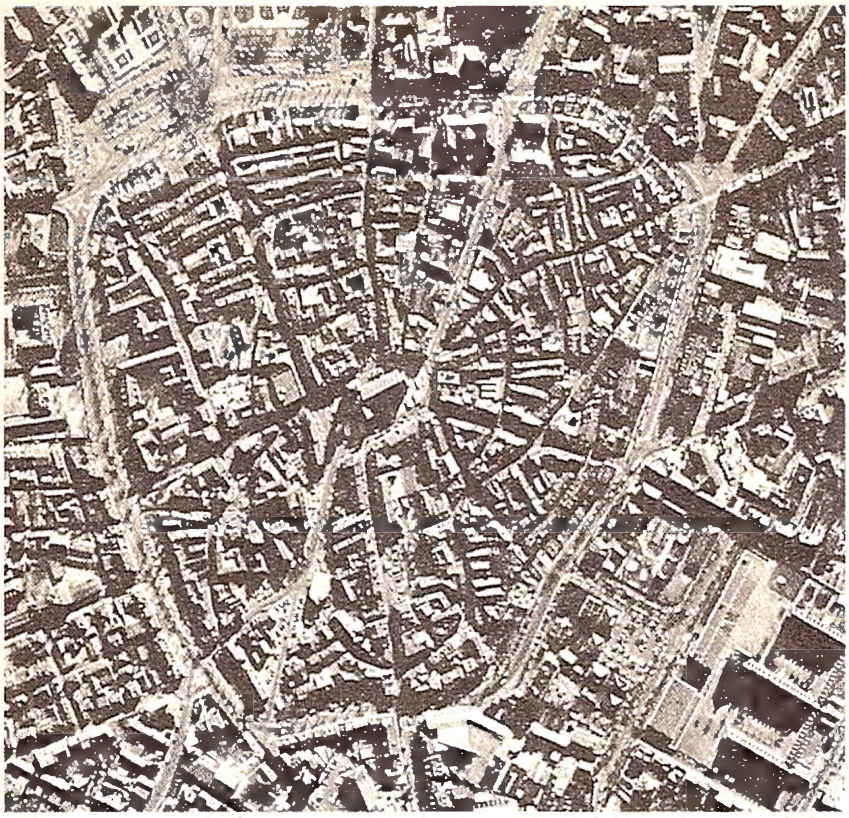

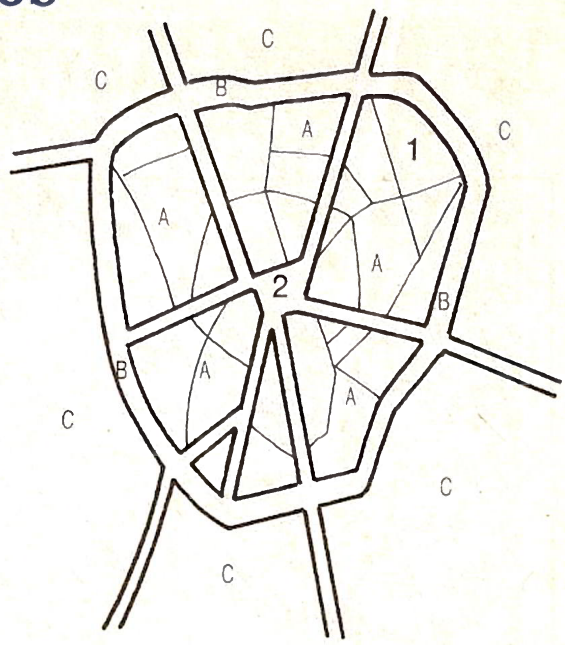

A : vieille ville

B : boulevard circulaire. A remplacé les anciens murs d'enceinte.

C : quartiers plus récents. faubourgs.

1 Le plan d'une ancienne ville médiévale, Brive



2 Carcassonne

Pour commercer, pour vivre ensemble, pour se protéger, les hommes se sont **groupés** dans des villes depuis très longtemps. Les villes se sont construites autour des églises, se sont entourées de **remparts.** Elles ont grandi au-delà des murailles. Plus on s'éloigne du centre et moins les quartiers sont anciens. Les ruelles étroites n'étaient pas prévues pour l'automobile.

14 À travers les vieilles villes

Barrez les réponses fausses.

Figure 1

1 a) Brive est une ancienne ville fortifiée
b) Brive est une ville nouvelle
c) Les rues sont toutes droites et larges
d) Les rues sont tortueuses et étroites

2 a) Il n'y a plus de remparts et les voitures circulent sur un boulevard autour de la ville
b) On ne peut pas entrer dans la vieille ville en voiture à cause des remparts

3 a) Le point 1 se trouve dans les faubourgs
b) Le point 1 se trouve dans la vieille ville
c) Le point 2 se situe près de l'église
d) Le point 2 se situe sur le boulevard circulaire

4 a) En suivant le boulevard circulaire, on fait tout le tour de la vieille ville
b) En suivant le boulevard circulaire, on pénètre dans le centre de la ville

Figure 2

1 a) Carcassonne était complètement entourée par des remparts
b) A Carcassonne, seule l'église était protégée par des remparts

2 a) Il y a des grands immeubles neufs et des avenues dans la vieille cité
b) Il n'y a ni grands immeubles neufs ni avenues dans la vieille cité

3 a) Pour entrer dans la vieille ville, il faut franchir deux lignes de remparts
b) Pour entrer dans la vieille ville, il faut franchir une ligne de remparts

Figures 3 et 4

1 a) Dans les villes anciennes, les rues étaient recouvertes de pavés
b) Dans les villes anciennes, les rues étaient goudronnées

2 a) Dans les villes anciennes, les boutiques étaient signalées par des enseignes lumineuses
b) Dans les villes anciennes, les boutiques étaient signalées par des enseignes

3 a) Dans les villes anciennes, les échoppes donnaient directement sur la rue
b) Dans les villes anciennes, les échoppes se trouvaient dans les étages

4 a) Les rues étaient surtout faites pour la circulation des piétons
b) Les rues étaient surtout faites pour la circulation des véhicules

3 Une rue, il y a très longtemps...

4 Une rue piétonne à Quimper

15 Béton et vieilles pierres

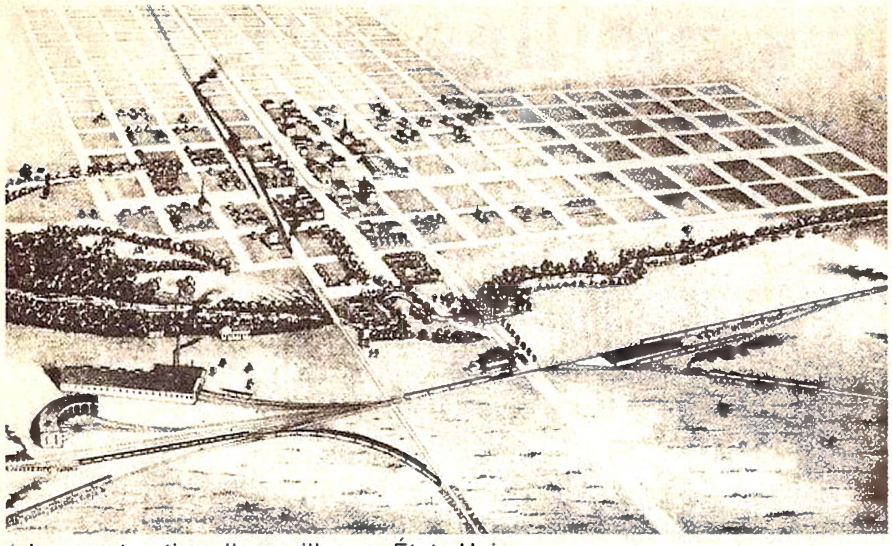

1 La construction d'une ville aux États-Unis

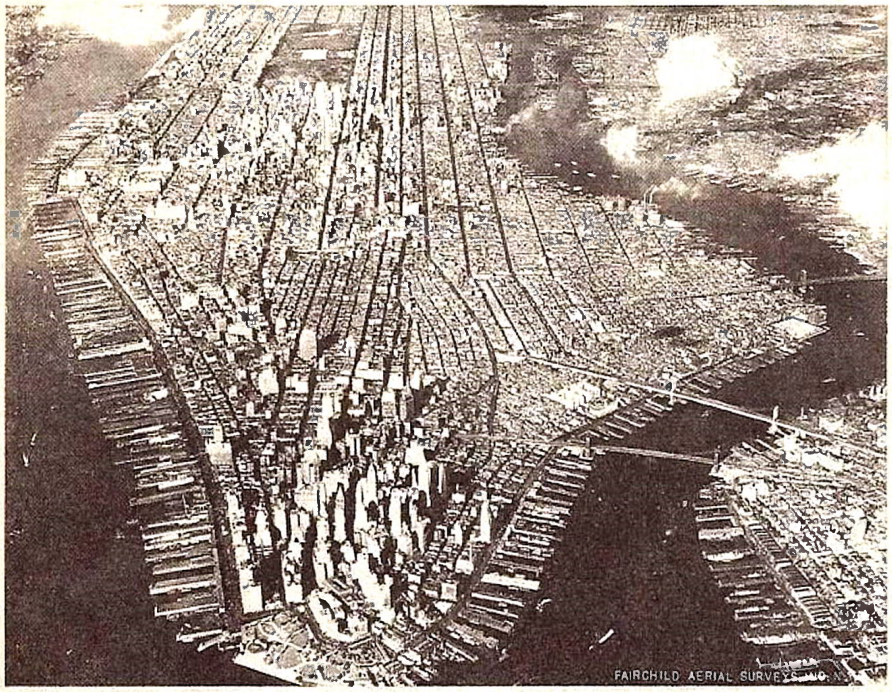

2 Vue aérienne de New York

3 Une ville nouvelle en U.R.S.S. : Togliatti
Ville nouvelle en pays socialiste, Togliatti comptait 72 000 habitants en 1959 et plus de 500 000 en 1980 !

1 Cochez les bonnes réponses.

Figure 1

1 Le dessin des rues ressemble
☐ a) à une cible ronde
☐ b) à un damier

2 Le principal bâtiment est
☐ a) l'église
☐ b) la gare
☐ c) une usine

3 Les constructions sont
☐ a) basses
☐ b) très hautes

Figure 2

1 Le dessin des rues fait penser à
☐ a) un damier
☐ b) une cible ronde

2 Les plus grands bâtiments se trouvent
☐ a) au centre
☐ b) au bout, près de la mer

3 La ville est entourée par
☐ a) des remparts
☐ b) des boulevards
☐ c) les installations du port

4 Les deux rives sont reliées par
☐ a) des ponts-levis
☐ b) des ponts de pierre
☐ c) des ponts suspendus

Figure 3

1 Les constructions sont
☐ a) des maisons individuelles
☐ b) des immeubles collectifs

2 Les plus grands immeubles ont
☐ a) moins de 4 étages
☐ b) plus de 10 étages

3 Pour circuler, on utilise surtout
☐ a) les transports individuels
☐ b) la marche à pied
☐ c) les transports en commun

15 Béton et vieilles pierres

2 Observez bien et répondez.

Figure 4

1 Entourez en **rouge** la ville nouvelle

2 La ville ancienne est-elle dominée par une église ou par une mosquée ? _____

_____

3 Y a-t-il des immeubles neufs derrière la vieille ville ?

_____

4 Le Caire, capitale de l'Égypte

Figure 5

1 S'agit-il de la vieille ville ou des nouveaux quartiers ? Pourquoi ?

_____

_____

_____

_____

2 Comment se fait la circulation ? _____

_____

_____

5 La place Rouge, au cœur de Moscou (U.R.S.S.)

Figure 6

Comparez avec la rue des marchands de la fiche précédente. Relevez 2 ou 3 différences.

_____

_____

_____

_____

_____

_____

_____

_____



6 Un centre commercial régional : Rosny II

16 Des villages



1 Un village de montagne



2 Un village d'Alsace



3 Un village du Languedoc



4 Un village de la Beauce



5 Un village abandonné en Haute-Provence

16 Des villages

1 **Reconnaissez les villages et indiquez le ou les numéros des documents correspondants.**

	N^os^ correspondants
a) Ils sont situés en haut d'une colline	
b) Il est situé sur une pente	
c) Il est situé dans une vallée	
d) Ils sont situés en plaine	
e) Il n'est pas facile d'y arriver	
f) Les voitures ne peuvent pas y circuler	
g) Il y a des ruines	
h) Ils sont situés au milieu des vignes	
i) Ils sont situés au milieu de champs cultivés	
j) Ils dominent des terres arides	

2 **La vie au village. Répondez par OUI ou par NON.**

a) Y-a-t-il des immeubles ? _____

b) Y-a-t-il des embouteillages ? _____

c) Les gens peuvent-ils s'asseoir quelquefois devant leur maison ? _____

d) Peut-on faire ses courses dans des supermarchés sans sortir du village ? _____

e) Les jeunes trouvent-ils les mêmes distractions qu'en ville ? _____

f) Y-a-t-il des gens qui abandonnent leur village pour aller à la ville ? _____

3 **Voici une carte de France. Mettez sous le nom de la région le numéro du document correspondant (2, 3, 4 ou 5).**

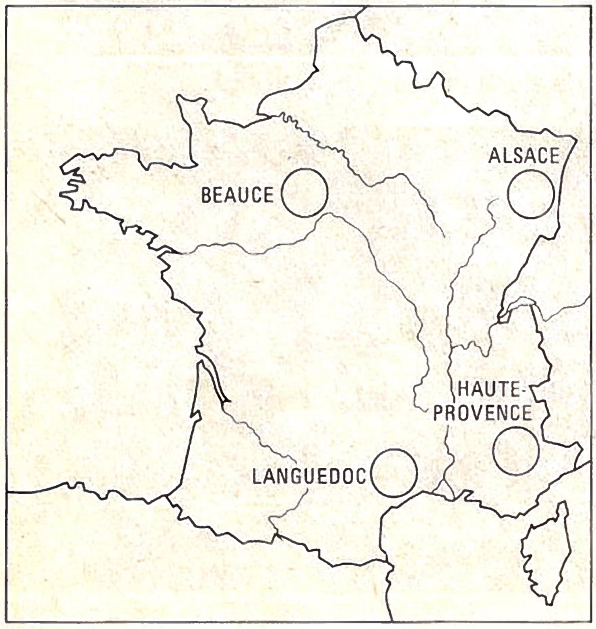

6 Un village en Espagne du Sud

17 A travers bois

1 En Amérique du Sud, le long de l'Amazone, une forêt immense



2 Une forêt de feuillus dans la région de Beauvais

3 Une forêt de sapins dans le Jura



4 Une forêt de résineux en Finlande

17 A travers bois

1 **Reliez les éléments qui vont ensemble.**

Dans une forêt de	il y a	par exemple
résineux •	• des arbres à feuillage caduc, qui tombe chaque année en hiver •	• le pin • le chêne • le platane
feuillus •	• des arbres à feuillage persistant, souvent des aiguilles, qui se renouvellent petit à petit •	• le hêtre • le marronnier • le sapin

2 Le *document 2* représente-t-il une forêt en hiver ? _____ Pourquoi ? _____

_____

3 En regardant les sapins sur le *document 3,* peut-on savoir si l'on est en hiver ? _____

Pourquoi ? _____

4 **Cochez la case devant le nom de ce qui vit dans les forêts.**

☐ a) des oiseaux
☐ b) des phoques
☐ c) des fleurs
☐ d) des champignons
☐ e) des reptiles
☐ f) des requins
☐ g) des insectes
☐ h) des arbres
☐ i) des chameaux

5 **Soulignez en ROUGE ce qu'il ne faut pas faire dans la forêt.**

a) allumer du feu pour cuire des aliments
b) jeter un mégot allumé par terre
c) casser les branches des jeunes arbres
d) couper les arbres morts pour faire de la place
e) arracher les jeunes arbres
f) surveiller les maladies des arbres
g) jeter des détritus, bouteilles en plastique, etc.
h) replanter des arbres à la place des arbres coupés

5 - 6 Le grand ennemi des forêts : le feu

18 A travers champs

1 Labours

2 Récolte des tomates



3 Grande exploitation agricole du Bassin parisien

18 A travers champs

1 Cochez la case devant le nom des produits agricoles.

- ☐ a) le blé
- ☐ b) le charbon
- ☐ c) le lait
- ☐ d) l'acier
- ☐ e) la viande
- ☐ f) l'avoine
- ☐ g) les salades
- ☐ h) les tomates
- ☐ i) la laine
- ☐ j) le sel
- ☐ k) les haricots
- ☐ l) le plâtre
- ☐ m) l'aluminium
- ☐ n) le verre
- ☐ o) les pommes de terre
- ☐ p) les poulets
- ☐ q) les pommes
- ☐ r) les matières plastiques
- ☐ s) le seigle
- ☐ t) les olives

2 S'agit-il d'une grande exploitation agricole ?

a) Sur le document 1 ? _____ b) sur le document 2 ? _____ c) sur le document 5 ? _____

3 Cochez les bonnes cases.

1 Dans la grange, on met	☐ a) le blé ☐ d) le seigle	☐ b) l'avoine ☐ e) les porcs	☐ c) les moutons ☐ f) le foin
2 Dans l'étable, on met	☐ a) le blé ☐ d) les veaux	☐ b) l'avoine ☐ e) les bœufs	☐ c) les vaches ☐ f) le foin
3 Dans l'écurie, on met	☐ a) le blé ☐ d) les porcs	☐ b) les chevaux ☐ e) les juments	☐ c) les vaches ☐ f) le foin
4 Dans le potager, on cultive	☐ a) des poireaux ☐ d) des choux	☐ b) du blé ☐ e) des pommes de terre	☐ c) des carottes ☐ f) du foin
5 Dans les serres, on cultive	☐ a) des salades ☐ d) des tomates	☐ b) du blé ☐ e) des petits pois	☐ c) des carottes ☐ f) du foin

4 Quels sont les éléments indiqués sur la ferme du *doc. 4* que l'on retrouve sur la ferme du *doc. 3* ?

_____

_____

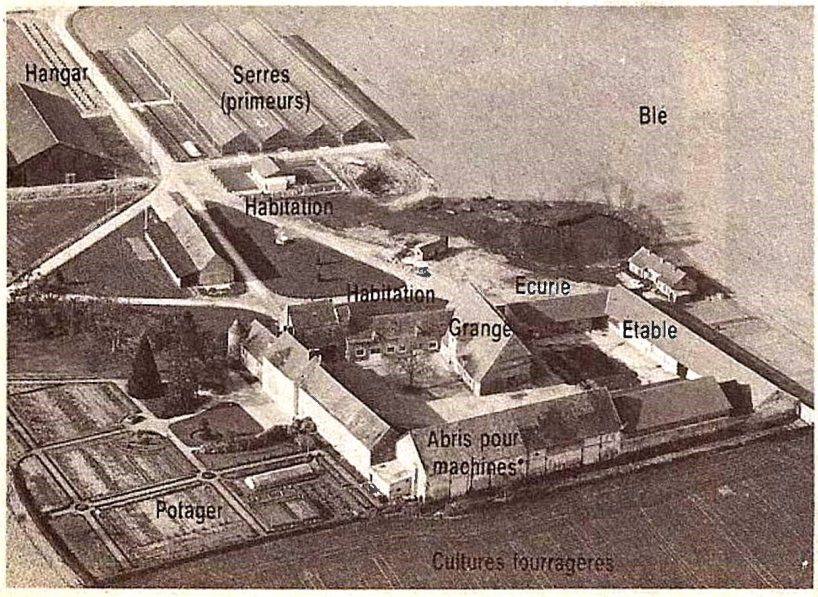

4

5

19 A l'usine



1 Dans ces usines de Dunkerque, on fabrique de l'acier

2 A l'intérieur des usines de Dunkerque

3 Usine de conditionnement de produits pharmaceutiques.

4 La sortie des ouvriers

19 A l'usine

1 Cochez la case devant le nom des produits industriels.

- ☐ a) le charbon
- ☐ b) l'acier
- ☐ c) les engrais
- ☐ d) la viande
- ☐ e) le verre
- ☐ f) la laine
- ☐ g) les matières plastiques
- ☐ h) le blé
- ☐ i) le lait
- ☐ j) la fonte
- ☐ k) l'aluminium
- ☐ l) les machines à laver
- ☐ m) les avions
- ☐ n) les médicaments
- ☐ o) les légumes
- ☐ p) les peintures
- ☐ q) les tracteurs
- ☐ r) les téléviseurs
- ☐ s) les automobiles
- ☐ t) les fruits

2 Cochez les bonnes cases.

1 Dans **l'industrie alimentaire**, on fabrique :
- ☐ a) du sucre
- ☐ b) de l'huile
- ☐ c) des pommes de terre
- ☐ d) des conserves
- ☐ e) des fromages
- ☐ f) de l'acier

2 Dans **l'industrie chimique**, on fabrique :
- ☐ a) des matières plastiques
- ☐ b) des engrais
- ☐ c) des peintures
- ☐ d) du sucre
- ☐ e) des médicaments
- ☐ f) de l'acier

3 Dans **l'industrie lourde**, on fabrique :
- ☐ a) de la fonte
- ☐ b) du fer
- ☐ c) du plomb
- ☐ d) des automobiles
- ☐ e) des locomotives
- ☐ f) de l'acier

4 Dans **l'industrie mécanique**, on fabrique :
- ☐ a) des locomotives
- ☐ b) des avions
- ☐ c) des bateaux
- ☐ d) des matières plastiques
- ☐ e) des automobiles
- ☐ f) de l'acier

5 Dans **l'industrie textile**, on fabrique :
- ☐ a) de la laine
- ☐ b) de la soie
- ☐ c) du coton
- ☐ d) des fromages
- ☐ e) du nylon
- ☐ f) de l'acier

3 La main-d'œuvre est-elle composée plutôt de femmes ou d'hommes ?

a) dans une usine de produits pharmaceutiques *(document 3)* _____

b) dans une usine d'automobiles *(document 4)* _____

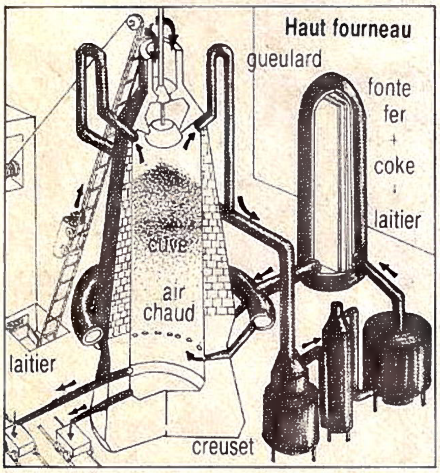

5 Haut fourneau

haut fourneau. Grand four où l'on fait fondre le minerai de fer pour le transformer en fonte. *On charge le* ***haut fourneau*** *par le haut avec du coke et du minerai de fer. On y ajoute une substance, souvent calcaire (laitier), qui élimine le sable ou autres impuretés contenues dans le minerai. Un courant d'air très chaud (600 à 900 °C) accroît la combustion du coke. Le minerai fond et donne une coulée de fonte. Les impuretés se mélangent au laitier et produisent ainsi une substance utilisée dans la fabrication d'engrais.* D'après *Dictionnaire encyclopédique d'éveil,* Hachette.

4 Une seule réponse pour 3 questions.

a) Que met-on dans le gueulard ?

b) Que trouve-t-on dans la cuve ?

c) Avec quoi fabrique-t-on la fonte ?

_____

_____

_____

_____

20 Un toit pour vivre...



1 Un aspect de la banlieue parisienne (Sarcelles, Val-d'Oise)



2 Des bidonvilles à côté d'immeubles modernes



3 La tente des nomades sahariens

4 Une maison de vigneron en Bourgogne

5 Des gitans et leurs roulottes

20 Un toit pour vivre...

1 **Reliez les éléments qui vont ensemble.**

On appelle	des gens qui	par exemple dans
sédentaires •	• n'habite pas dans un endroit fixe et qui vivent dans des habitations qu'ils peuvent transporter •	• des roulottes • des maisons • des tentes
nomades •	• vivent toujours au même endroit, dans des habitations qu'ils ne peuvent pas transporter •	• des immeubles • des bateaux • des cases

2 *Habitat urbain,* **dans les villes ou** *habitat rural,* **dans les campagnes ? Cochez la ou les cases qui conviennent.**

	habitat urbain	habitat rural		habitat urbain	habitat rural
tour			tente		
bidonville			maison de vigneron		
roulotte			pavillon		

3 **Qu'est-ce qu'on y trouve ? Cochez la ou les cases qui conviennent.**

	immeuble	tente	maison	roulotte
escaliers	*Ex. :* +			
ascenseurs				
chambres				
portes				
fenêtres				
toiture				
eau courante				

4 **Une erreur a rendu incompréhensible la légende du document 7. Retrouvez-la en remettant les syllabes dans le bon ordre. Sachez qu'il s'agit d'un village situé au bord d'un lac et que les maisons sont construites au-dessus de l'eau.**

6

mauvaise légende :
vilustre lactis sur pilolage

bonne légende :

_____

_____

_____

_____



7

21 Villes et campagnes

1 Transport d'animaux dans le Marais poitevin

4 La circulation en ville



2 Une ferme isolée

5 Une rue piétonne dans une grande ville

3 Deux agriculteurs et leur matériel

6 Les caisses de paiement dans un supermarché

21 Villes et campagnes

1 La vie à la ville. Répondez par VRAI (V) ou par FAUX (F).

a) On est souvent pris dans les embouteillages ☐
b) On peut utiliser des transports en commun comme le métro ou le tramway ☐
c) On peut se promener dans le centre, dans des rues piétonnes ☐
d) On peut circuler en ville avec un tracteur ☐
e) On peut cultiver des champs de blé autour de chez soi ☐
f) On a le choix des magasins pour faire ses achats ☐
g) On peut faire ses courses dans les supermarchés ☐
h) On doit parfois faire la queue devant les caisses des supermarchés ☐
i) On peut garder des moutons près de chez soi ☐
j) On peut envoyer des lettres à des gens qui vivent à la campagne ☐
k) On peut rapporter ses achats dans une charrette ☐
l) On peut téléphoner à des gens qui vivent à la campagne ☐

2 La vie à la campagne. Répondez par VRAI (V) ou par FAUX (F).

a) On vit souvent en contact avec la nature ☐
b) On élève des animaux qu'on ne pourrait pas mettre dans un appartement ☐
c) On s'habille tous les jours avec un veston et une cravate ☐
d) On vit parfois dans une maison isolée ☐
e) On a toujours sous les yeux de nombreuses enseignes de magasin ☐
f) On est souvent agriculteur ☐
g) On se déplace plus souvent sur des routes et des chemins que dans des rues ☐
h) On croise sans arrêt dans les rues des gens qu'on ne connaît pas ☐
i) On conduit des tracteurs et d'autres machines agricoles ☐
j) On peut envoyer des lettres à des gens qui vivent à la ville ☐
k) On rentre tous les soirs par le bus dans son immeuble ☐
l) On peut téléphoner à des gens qui vivent à la ville ☐

3 D'après les 2 précédents exercices qu'est-ce qui relie la ville et la campagne ? _____

_____

7 Un berger corse

8 Une ferme bretonne, vers 1950



9

22 Voyagez !



1 Train monorail, autoroute et avions au Japon

2 Un grand aéroport international



3 Une station d'essence sur l'autoroute A6

4 Une importante voie de communication : le Rhin

22 Voyagez !

1 Reliez les moyens de transport à la voie qu'ils empruntent.

a) Le train est un moyen de transport •	• 1) par voie routière
b) L'avion est un moyen de transport •	
c) L'autocar est un moyen de transport •	• 2) par voie ferrée
d) La moto est un moyen de transport •	
e) Le cargo est un moyen de transport •	• 3) par voie fluviale
f) Le camion est un moyen de transport •	
g) L'automobile est un moyen de transport •	• 4) par voie aérienne
h) La péniche est un moyen de transport •	• 5) par voie maritime

2 Sur quels documents voit-on des moyens de transports ?

a) terrestres, par route : _____

b) terrestres, par voie ferrée : _____

c) aériens : _____

d) par voie fluviale : _____

3 Mettez une croix dans la case s'il s'agit de transports en commun.

☐ a) le métro ☐ b) le train ☐ c) l'autocar ☐ d) la moto ☐ e) l'auto ☐ f) l'avion

4 D'après le document 4 :

a) voit-on un moyen de transport aérien ? _____

b) et pourtant on peut affirmer qu'il y en a un. Pourquoi ? _____

_____

5 Recherche.

1 Quel moyen de transport utilisez-vous pour venir à l'école ? _____

2 Cherchez qui, dans votre famille ou les gens que vous connaissez, a utilisé les moyens de transport suivants :

a) moto _____

b) vélomoteur _____

c) avion à réacteurs _____

d) péniche _____

e) avion à hélice _____

f) train _____

g) autocar _____

h) bateau _____

5 Un car de ramassage scolaire

RÉFÉRENCES PHOTOGRAPHIQUES

Pages

3 ph. BN
ph. Hachette
5 photo météorologie nationale
7 ph. Giraudon - Musée de Cluny
8 doc. 1 ph. Darbois
doc. 2 Ardea photographics-Mickleburgh
doc. 3 ph. Magnum Barbey
doc. 4 Ardea photographics-Behrens
9 doc. 5 ph. J. Bottin
doc. 6 ph. Le Doaré
10 doc. 1 ph. Pélissier
doc. 2 ph. Gamma-Brulé
doc. 3 Afrique photo, cl. Naud
doc. 4 Atlas photo-Chaveyron
11 doc. 5 S.E.F. ph. A. Regaldi
doc. 6 Pitch, ph. F. Valla
doc. 7 Vu du ciel par A. Perceval
12 doc. 1 Shostal
doc. 4 ph. Sygma
15 doc. 1 photo aérienne Bernard Beaujard
17 doc. 1 ph. Pitch, cl. Hayon
doc. 2 ph. F. Boissière
doc. 3 ph. J. Lagraulet
doc. 4 cl. Hachette - Vue du ciel par A. Perceval
18 doc. 1 ph. Georg Gerster - Rapho
doc. 2 ph. Diatec
doc. 3 Fondation Marius Berliet
doc. 4 Sygma - ph. Korody
doc. 5 ph. F. Ducasse-Rapho
doc. 6 ph. Fiore - Explorer
20 doc. 1 A.A.A. photo - cl. Naud
doc. 2 S.E.F. ph. A. Regaldi
doc. 3 Cl. Hoa-Gui - ph. Huet
doc. 4 ph. J. Martin
21 doc. 5 ph. Atelier z - René Bonnardel
doc. 6 ph. Bavaria Verlag - Luthy
doc. 7 Pitch - ph. P. E. Victor
22 doc. 1 photo aérienne Bernard Beaujard
doc. 2 doc. Total
doc. 3 Vu du ciel par Alain Perceval
23 doc. 4 photo aérienne Bernard Beaujard
doc. 5 Explorer - ph. Louis Salou
24 dessin de D. Lambert
25 ph. Shostal
26 doc. 1 dessin de Letoct
doc. 2 Vu du ciel par Alain Perceval
doc. 3 J. C. Meauxsoone
28 doc. 1 ph. I.G.N.
doc. 2 ph. Durandaud
29 doc. 3 ph. Hachette
doc. 4 ph. J. C. Cavard
30 doc. 1 Library of Congress/Washington
doc. 2 IPS
doc. 3 APN
31 doc. 4 ph. J. G. Ross - Rapho
doc. 5 ph. Augereau
doc. 6 ph. C. Hazane - CRDP
32 doc. 1 ph. M. Pedone
doc. 2 Vu du ciel par Alain Perceval
doc. 3 ph. Pierre Mackiewicz
doc. 4 Beaujard - Rapho
doc. 5 cl. Diatec © Combier
33 doc. 6 ph. Pelissier
doc. 1 ph. Georg Gerster-Rapho
34 doc. 2 ph. F. Boissière
doc. 3 ph. M. Hetier
doc. 4 ph. Gamma - B. Gérard
35 doc. 5 Explorer - ph. Boutin
doc. 6 ph. M. Pedone
36 doc. 1 Picturepoint
doc. 2 Shostal
doc. 3 photo aérienne Bernard Beaujard
37 doc. 4 Vu du ciel par Alain Perceval
doc. 5 Diatec, ph. C. Martin
38 doc. 1 Usinor
doc. 2 cl. Printel
doc. 3 Usinor
doc. 4 © C. Raimond - Dityvon
40 doc. 1 photo aérienne Bernard Beaujard
doc. 2 © C. Raimond-Dityvon/Viva
doc. 3 AAA photo Naud
doc. 4 ph. Grasser
doc. 5 ph. Almasy
41 doc. 6 cl. Rapho © H. W. Silvester
doc. 7 cl. Almasy
42 doc. 1 cl. Pix - ph. Arthaud
doc. 2 Vu du ciel par Alain Perceval
doc. 3 ph. Lambert
doc. 4 C. Santos-Rapho
doc. 5 ph. F. Boissière
doc. 6 ph. Doisneau-Rapho
43 doc. 7 ph. Roger-Viollet
doc. 8 Ciccione - Rapho
doc. 9 ph. Grasser
44 doc. 1 ph. Bonta Amano
doc. 2 FAG-Foto : Milan Skaryd
doc. 3 Rapho - Phelps
doc. 4 Deutsche Luftbild
45 doc. 5 Rapho - Philippe

RÉPONSES AUX QUESTIONS

1 Circulez ! — *Exercice 2* — 1 : a / 2 : j / 3 : f / 4 : i / 5 : g / 6 : c / 7 : k / 8 : h.
Exercice 3 — Chambre à coucher, petit cabinet, grande chambre de la reine, chambre à coucher, grand cabinet de la reine, antichambre de la reine, salle des gardes de la reine.

2 Une carte — *Exercice 1* — 1 : a, d / 2 : a, d.
Exercice 2 — 1 : a, b, c, e, f, h, i, / 2 : a / 3 : a / 4 : b, d.

3 Les quatre saisons — *Exercice 3* — Vrai : 2, 3, 5, 7, 8, 10, 11, 14, 16.
Exercice 4 — Été ; moisson, fruits.

4 Des climats différents — *Exercice 1* — a : 1 / b : 4 / c : 5 / d : 3 / e : 6.
Exercice 2 — 1 : A / 2 : A / 3 : C / 4 : C / 6 : B.

5 Les sols — *Exercice 1* — Barrer : a, c, d.
Exercice 2 — a : 4 / b : 6 / c : 1 / d : 2 / e : 3 / f : 5 / g : 7.

6 Par monts et par vaux — *Exercice 1* — a : 1 pic / b : 5 colline / c : 3 vallée / d : 4 plateau / e : 7 ballon / f : 8 plaine / g : 2 volcan.
Exercice 2 — 1 : a / 2 : a / 3 : a / 4 : b / 5 : a / 6 : a / 7 : a.

7 Au fil de l'eau — *Exercice 1* — a : 1 neige / b : 3 glacier / c : 2 pluie / d : 4 torrent / e : 6 ruisseau / f : 5 rivière / g : 7 affluent / h : 8 confluent / i : 9 fleuve / j : 10 embouchure.
Exercice 2 — a : en amont / b : en aval / c : rive droite / d : rive gauche.
Exercice 4 — 1 : a / 2 : a / 3 : b / 4 : a / 5 : b.

8 Au bord de l'eau — *Exercice 1* — a : 8 cap / b : 1 falaise / c : 3 golfe / d : 4 presqu'île / e : 5 île / f : 6 récifs / g : 7 plage / h : 2 crique.
Exercice 3 — a : 4 / b : 3 / c : 2 / d : 1.

9 De la piste à l'autoroute — *Exercice 2* — 1 : 4 / 2 : 3 / 3 : 2 / 4 : 1 / 5 : 6 / 6 : 5 / 7 : 1 / 8 : 3 / 9 : 2 / 10 : 5.

10 L'homme dans la nature — *Exercice 1* — Fig. 1 : b, d, f / fig. 2 : a, c, e / fig. 3 : a, d / fig. 4 : b, d, f.
Exercice 2 — a, c, e, h, i, k, l.

11 L'homme et la nature — 1 : b, d, f, h / 2 : b, d, f, g, h / 3 : b, c, e, g, h / 4 : b, d, e, j / 5 : b, d, e, f, h.

12 Rentrons au port — Vrai : 1, 4, 5, 6, 8, 9, 10, 11, 12, 13, 15, 17, 19, 20, 23, 24, 25, 26, 27, 29, 33.

13 Les loisirs — Vrai : 2, 3, 5, 6, 7, 9, 10, 12, 13, 15, 16, 17, 19, 20.

14 A travers les vieilles villes — Barrer : Fig. 1 : 1bd ; 2b ; 3ad ; 4b / Fig. 2 : 1b ; 2a ; 3b / Fig. 3 et 4 : 1b ; 2a ; 3b ; 4b.

15 Béton et vieilles pierres — *Exercice 1* — Fig. 1 : 1b ; 2b ; 3a / fig. 2 : 1a ; 2b ; 3bc ; 4c / fig. 3 : 1b ; 2b ; 3c.

16 Des villages — *Exercice 1* — a : 1, 5, 6 / b : 6 / c : 2 / d : 3, 4 / e : 1, 5, 6 / f : 1, 5, 6 / g : 5 / h : 2, 3 / i : 2, 3, 4, 6 / j : 1, 5.
Exercice 2 — non : a, b, d, e ; oui : c,f.
Exercice 3 — Alsace : 2 / Beauce : 4 / Haute-Provence : 5 / Languedoc : 3.

17 A travers bois — *Exercice 1* — Dans une forêt de résineux, il y a des arbres à feuillage persistant, souvent des aiguilles, qui se renouvellent petit à petit, par exemple le pin, le sapin / dans une forêt de feuillus, il y a des arbres à feuillage caduc, qui tombe chaque année en hiver, par exemple le chêne, le platane, le hêtre, le marronnier.
Exercice 2 — non — forêt de feuillus ; on voit les feuilles.
Exercice 3 — non ; les sapins ont des aiguilles en toutes saisons.
Exercice 4 — a, c, d, e, g, h.
Exercice 5 — a, b, c, e, g.

18 A travers champs — *Exercice 1* — a, c, e, f, g, h, k, o, p, q, s, t.
Exercice 2 — oui pour docs. 1 et 2.
Exercice 3 — 1 : a, b, d, f / 2 : c, d, e / 3 : b, e / 4 : a, c, d, e / 5 : a, d.
Exercice 4 — serres - jardin potager - habitation - grange - écurie - abris pour machines - cultures fourragères.

19 A l'usine — *Exercice 1* — a, b, c, e, f, g, j, k, l, m, n, p, q, r, s.
Exercice 2 — 1 : a, b, d, e / 2 : a, b, c, e / 3 : a, b, c, f / 4 : a, b, c, e / 5 : a, b, c, e.
Exercice 3 — a : femmes / b : hommes.
Exercice 4 — coke + minerai de fer + laitier.

20 Un toit pour vivre... — *Exercice 1* — On appelle sédentaires des gens qui vivent toujours au même endroit dans des habitations qu'ils ne peuvent pas transporter, par exemple dans des maisons, des immeubles, des cases / On appelle nomades des gens qui n'habitent pas dans un endroit fixe et qui vivent dans des habitations qu'ils peuvent transporter, par exemple dans des roulottes, des tentes, des bateaux.
Exercice 2 — habitat urbain : tour, bidonville, pavillon.
Exercice 3 — immeuble : escaliers, ascenseurs, chambres, portes, fenêtres, toiture, eau courante / tente : toiture / maison : escaliers, chambres, portes, fenêtres, toiture, eau courante / roulotte : escaliers, portes, fenêtres, toiture.
Exercice 4 — village lacustre sur pilotis.

21 Villes et campagnes — *Exercice 1* — V : a, b, c, f, g, h, j, l.
Exercice 2 — V : a, b, d, f, g, i, j, l.
Exercice 3 — doc. 9 : la poste et le téléphone ; mais aussi la route et le chemin de fer...

22 Voyagez ! — *Exercice 1* — a : 2 / b : 4 / c : 1 / d : 1 / e : 5 / f : 1 / g : 1 / h : 3.
Exercice 2 — a : 1, 3, 4, 5 / b : 1, 4 / c : 1, 2 / d : 4.
Exercice 3 — a, b, c, f.
Exercice 4 — non ; oui, l'avion d'où la photo est prise.

Collection Porte ouverte sur...

Comme les instructions officielles le recommandent, ces livrets sont destinés à *« l'exploitation de l'information et de la documentation »*.

L'élève y est invité à acquérir et exercer des **savoir faire,** en matière de **recherche,** à partir d'un choix de **documents significatifs** et de **textes** dans lesquels il doit découvrir les réponses à une batterie de questions.

Ces livrets sont destinés à constituer en fin d'année un **dossier** réunissant les **connaissances** qu'il n'est pas permis d'ignorer à la fin du cycle élémentaire.

Chacune des 22 doubles pages correspond à une **séquence de travail.** Le maître peut faire travailler ses élèves **individuellement** ou **par groupes** et soit corriger, soit faire pratiquer l'**autocorrection** grâce aux réponses fournies en fin de livret. À partir des résultats obtenus, il est possible de demander aux élèves d'élaborer un texte de **synthèse** qui contribuera à la fois à fixer les connaissances et à parfaire l'expression écrite.

M. OBADIA - A. RAUSCH

Porte ouverte sur...

- **la géographie,** CM2 / CM1 / CE2,
- **les sciences,** CM2 / CM1 / CE2,
- **l'histoire,** CM2 / CM1 / CE2,
- **l'éveil,** CE1,
- **la grammaire,** CM2 / CM1 / CE2,
- **les recherches documentaires,**
- **les dictionnaires et encyclopédies,**
- **les mathématiques,** CM2 / CM1 / CE2,
- **la micro-informatique.**

Collection dirigée par M. OBADIA et A. RAUSCH.

Dictionnaire Encyclopédique d'Éveil

Un ouvrage de référence



- 3 000 noms propres
- 2 000 noms communs
- un atlas historique et géographique de 27 pages
- des planches thématiques

9 782010 093319

Imprimé en France
SUD-OFFSET - 94 RUNGIS
11/4774/3